PEMERINTAH KOTA DENPASAR
DINAS PENDIDIKAN KEPEMUDAAN DAN OLAHRAGA
SEKOLAH DASAR NEGERI 10 PEMECUTAN
PENILAIAN AKHIR SEMESTER (PAS)
TAHUN PELAJARAN 2020/2021

L E M B A R S O A L

Mapel	: Matematika
Kelas	: **IV (Empat)**
Semester	: **I (satu)**
Hari / Tanggal	: **Jumat, 27 Nopember 2020**

KD. 3.1 Menjelaskan pecahan senilai dengan gambar dan model konkret serta berbagai bentuk pecahan (biasa dan campuran) dan hubungan di antaranya

1. Pecahan yang sesuai dengan gambar di bawah ini adalah . . . .

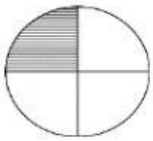

A. $\frac{1}{2}$

B. $\frac{1}{3}$

C. $\frac{1}{4}$

D. $\frac{1}{5}$

2. Gambar yang sesuai dengan pecahan $\frac{2}{3}$ adalah . . . .

A. 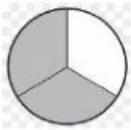

B. 

C. 

D.

3. Pecahan $\frac{7}{9}$ senilai dengan pecahan . . . .

   A. $\frac{14}{18}$

   B. $\frac{12}{14}$

   C. $\frac{10}{12}$

   D. $\frac{9}{11}$

4. Pecahan $\frac{1}{3} = \frac{x}{12}$. Nilai x yang benar adalah . . . .

   A. 3
   B. 4
   C. 5
   D. 6

5. Tanda yang tepat untuk mengisi titik – titik di bawah ini adalah . . ..

   $\frac{2}{3} \cdot \cdot \cdot \frac{9}{11}$

   A. =

   B. >

   C. <

   D. ≠

6. Tanda yang tepat untuk mengisi titik – titik di bawah ini adalah . . ..

   $\frac{5}{10} \cdot \cdot \cdot \frac{4}{9}$

   A. ≠

   B. =

   C. <

   D. >

7. Pecahan $\frac{4}{6}, \frac{2}{6}, \frac{1}{6}, \frac{3}{6}, \frac{5}{6}$, 1, 0 jika diurut dari nilai terkecil ke terbesar menjadi . . . .

A. $1, \frac{1}{6}, \frac{2}{6}, \frac{3}{6}, \frac{4}{6}, \frac{5}{6}, 0$

B. $0, \frac{1}{6}, \frac{2}{6}, \frac{3}{6}, \frac{4}{6}, \frac{5}{6}, 1$

C. $0, \frac{1}{6}, \frac{3}{6}, \frac{2}{6}, \frac{4}{6}, \frac{5}{6}, 1$

D. $\frac{1}{6}, \frac{2}{6}, \frac{3}{6}, \frac{4}{6}, \frac{5}{6}, 0, 1$

8. Pecahan yang paling sederhana dari $\frac{24}{36}$ adalah . . . .

A. $\frac{2}{3}$

B. $\frac{4}{6}$

C. $\frac{8}{12}$

D. $\frac{12}{18}$

9. Pecahan yang paling sederhana dari $\frac{14}{35}$ adalah . . . .

A. $\frac{28}{70}$

B. $\frac{14}{18}$

C. $\frac{7}{18}$

D. $\frac{2}{5}$

10. Bentuk pecahan campuran dari $\frac{17}{5}$ adalah . . . .

A. $2\frac{3}{5}$

B. $5\frac{2}{3}$

C. $3\frac{5}{2}$

D. $3\frac{2}{5}$

11. Bentuk desimal dari pecahan berikut

$\frac{6}{10} = \ldots.$

A. 10,6

B. 6,10

C. 0,6

D. 0,06

12. Bentuk persen dari pecahan berikut

$\frac{75}{100} = \ldots \%$

A. 100

B. 85

C. 75

D. 65

13. Bentuk desimal dari pecahan berikut

$2\frac{8}{10} = \ldots$

A. 10,8

B. 8,2

C. 2,10

D. 2,8

14. Bentuk persen dari pecahan berikut

3,25= . . . %

A. 325

B. 225

C. 125

D. 100