Додавання та віднімання числа 7

1. Упиши потрібні числа.

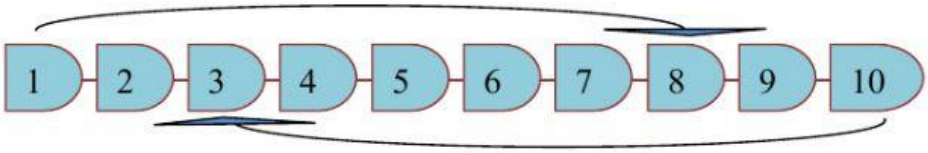

1+7=☐ 10-7=☐

2. Упиши потрібні числа за зразком.

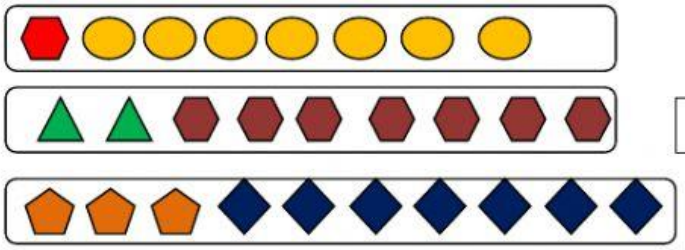

1+7=☐ 8-7=☐

☐+☐=☐ ☐-☐=☐

☐+☐=☐ ☐-☐=☐

3. Порівняй вираз і число.

9-7 ☐ 6	2+7 ☐ 9	7-7 ☐ 0
8-7 ☐ 2	0+7 ☐ 8	1+7 ☐ 6

4. Знайди довжину невідомого відрізка.

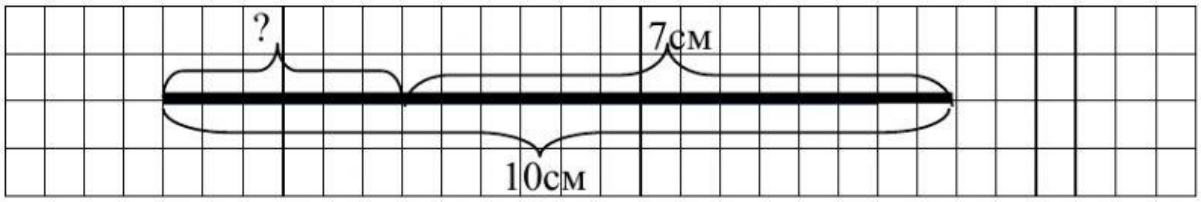

☐ - ☐ = ☐ (☐)

Відповідь: довжина невідомого відрізка ☐ см.

5. У Вероніки в пеналі 2 ручки, а у Віталіка – на 7 ручок більше.

Скільки ручок у Віталіка в пеналі?

☐+☐=☐ (☐.)

Відповідь: ☐ ручок.