Nama: _____ Kelas: 2 _____ Presensi: ____

LATIHAN SOAL MATEMATIKA MATERI BANGU RUANG

Tujuan: menyimpulkan ruas garis yang membatasi model bangun ruang secara tepat

A. Perhatikan gambar di bawah ini dan tentukan bagian mana yanng menunjukkan rusuk!

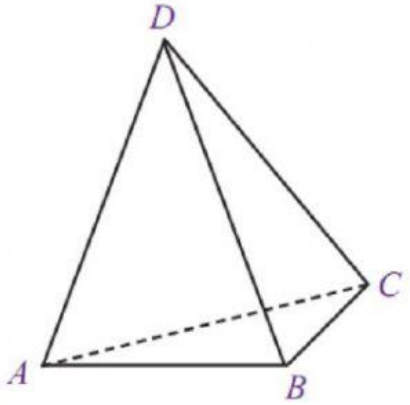

A,B, C, D

AB, AC, BC, CB, CD, , AC

ABC, ABD, BCD, ACD

B. Perhatikan gambar di bawah ini dan tuliskan nama semua rusuk (ruas garis) dari bangu ruang di bawah ini!

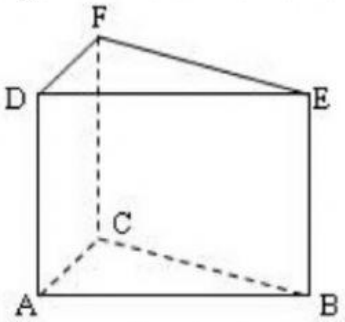

Jawab, pisahkan setiap rusuk dengan tanda koma (,)

C. Hubungkan dengan garis gambar bangun ruang di bawah ini sesuai dengan jumlah rusuknya!

1. 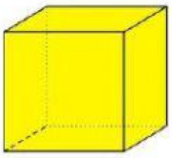

Rusuk = 8

2. 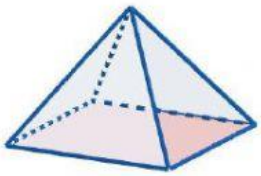

Rusuk = 12

3. 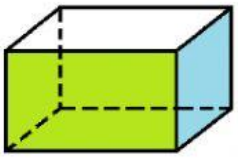

Rusuk = 9

4. 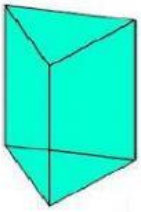

Rusuk = 12