الاسم

.....

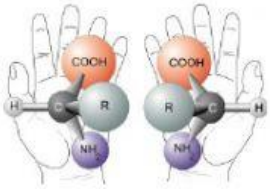

ورقة عمل (متشكلات الهيدروكربون)

السؤال الاول : صلي بين كل متشكل واسمه:

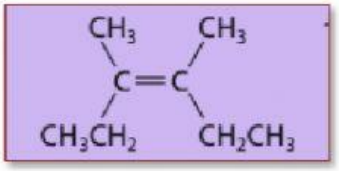

هندسي - ترانس

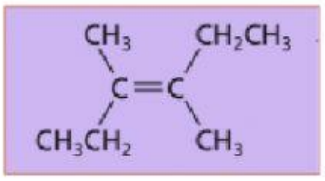

بنائي

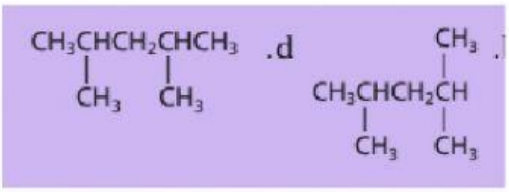

هندسي - سيس

السؤال الثاني: حددي المركبات التى تحتوي على ذرة كربون كيرالية ؟؟

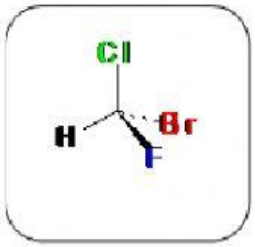

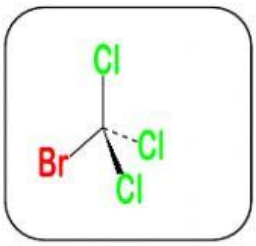

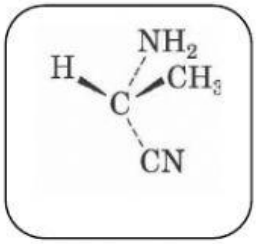

معلمة المادة : غادة المطرفي