Картка 8. Клітинна мембрана

Клас **Прізвище** **Ім'я**

І. Якими цифрами на малюнку клітинної мембрани позначено:

А.молекули білків; Б.шар фосфоліпідів; В.гідрофобні «хвости»; Г.білковий канал; Д гідрофільні головки;

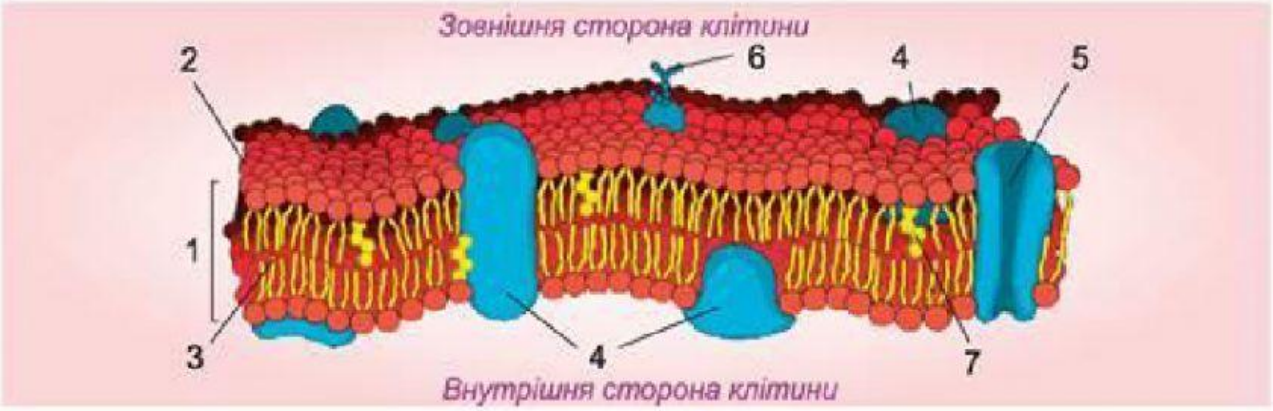

ІІ. Доберіть до кожного виду міжклітинних контактів його правильне визначення та зображення

1.Десмосоми 2.Щільні контакти 3.Синапси 4. Плазмодесми	А. комунікаційні контакти нервових клітин, які передають інформацію з нейронів на нейрони або з нейронів на м'язи Б. контакти у вигляді цитоплазматичних містків між клітинами. В. з'єднання двох клітин, що відбувається за допомогою елементів цитоскелета Г. контакти, в яких мембрани клітин максимально зближуються і зшиваються спеціальними білками.

Д

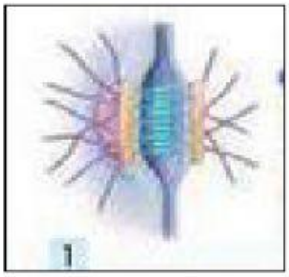

Е

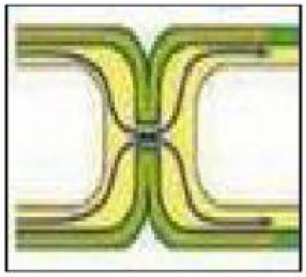

Є

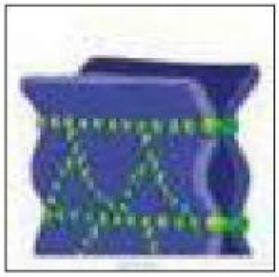

Ж

Як відправити лист

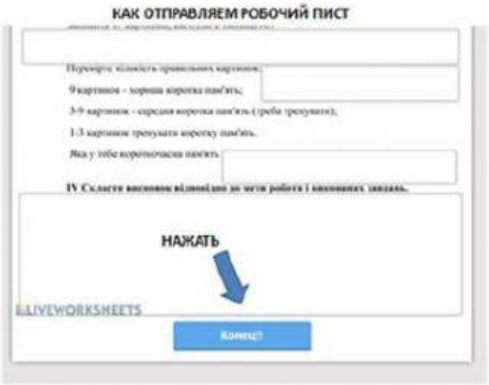

Моя почта в последней строчке iradobraja33@gmail.com