المملكة العربية السعودية
وزارة التعليم
ادارة التعليم بمحافظة الطائف
مكتب تعليم الخرمة -بنات
ثانوية و متوسطة الغريف

ورقة عمل لدرس

الحشرات و أشباهها

إعداد المعلمة :
مها سالم القاسمي



السؤال الأول

أ - (سؤال تحصيلي) مخلوق يحتوي على خمسة أزواج من الأرجل ؟

- الحشرات
- القشريات
- العنكبيات
- المفصليات

ب - زاوجي مكونات جسم الحشرة بمكانها الصحيح في الشكل أدناه :

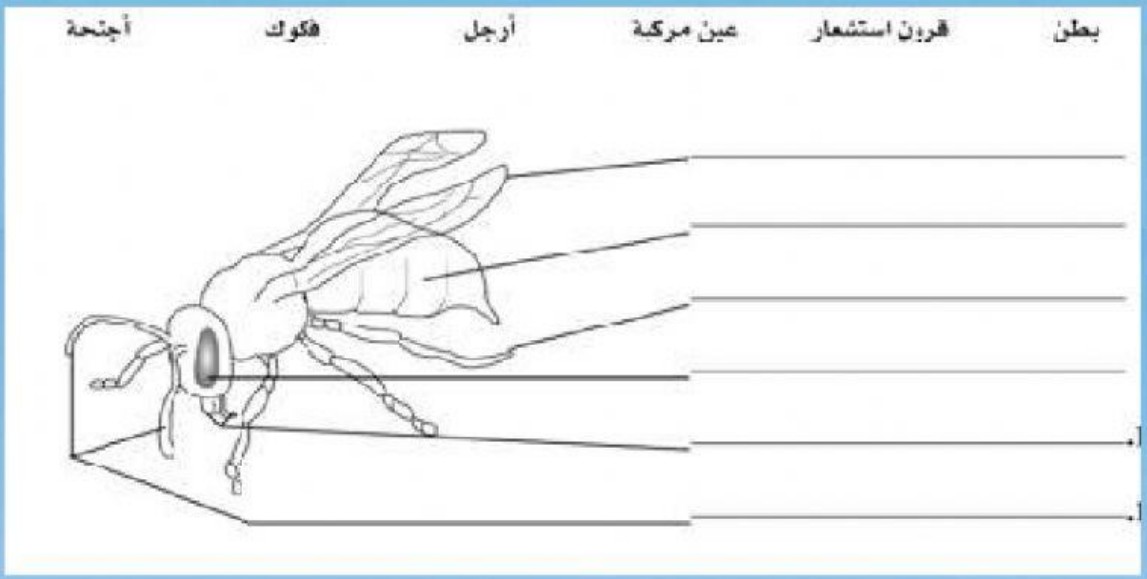



السؤال الثاني

أ- اكتبي الحرف الذي يشير إلى الإجابة الصحيحة في الفراغ المخصص عن يمين الأسئلة التالية :

_____ أي مما يأتي ليس جزءًا وليسًا من جسم الحشرة؟

A. البطن
B. الرأس
C. الأرجل
D. الصدر

_____ أي جزء من الجسم تكيّف للحفر، وجمع حبوب اللقاح والتزلج فوق الماء؟

A. العيون
B. الأرجل
C. أجزاء الفم
D. الأجنحة

ب - اربطي اجزاء الفم التالية بالوظيفة المناسبه لها :

أنبوبي	إسفنجي	ثاقب / ماص	قارض
القراش، والعث.	الذباب المنزلي، وذبابة الفاكهة.	اليعسوب، والحشرة النطاطة، وأبقة المستنقع والبراغيث.	الجراد، الخنافس، النمل، النمل (قارض لاعق).

أنبوب دقيق يشبه الإبرة يخترق الجلد أو جذر النبات لامتصاص السوائل وتوصيلها إلى الفم.

الجزء الطري من أجزاء الفم يعمل مثل الإسفنج ليلعق ويلحس.

تنفرد لفات أنبوب التغذّي وتمتد لامتصاص السوائل وتوصيلها إلى الفم.

الفك العلوي يمزق أنسجة الحيوان أو النبات أو يقطعها، وتقوم أجزاء الفم الأخرى بتوصيل الغذاء.