PEMBELAJARAN JARAK JAUH
SD ANGKASA 5 HALIM PERDANAKUSUMA
TAHUN PELAJARAN 2020/2021

NAMA :	HARI/TGL :
KELAS :	MAPEL :

Pilihlah huruf a, b, c atau d yang menurut kalian jawaban yang tepat !!

1. Berikut yang merupakan gambar segi banyak adalah . . .

a.

c.

b.

d. 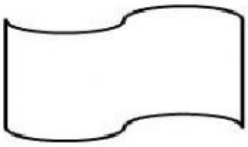

2. Berikut yang merupakan gambar bukan segi banyak adalah . . .

a.

c.

b. 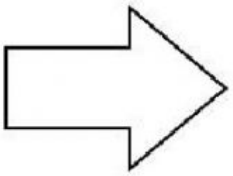

d.

3. Manakah nama yang benar untuk gambar segi banyak dibawah ini sesuai dengan banyak sisi nya !!



a. Segi lima
b. Segi empat
c. Segi enam
d. Segi tujuh

4. Manakah nama yang benar untuk gambar segi banyak dibawah ini sesuai dengan banyak sisi nya !!

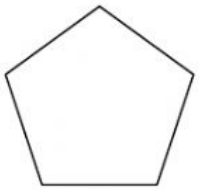

a. Segi empat
b. Segi enam
c. Segi lima
d. Segi delapan

5. Manakah nama yang benar untuk gambar segi banyak dibawah ini sesuai dengan banyak sisi nya !!

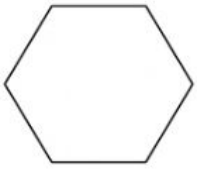

a. Segi delapan
b. Segi enam
c. Segi tujuh
d. Segi lima

6. Perhatikan gambar dibawah ini !!



Berapa banyak sisi dari gambar tersebut . . .

a. Enam
b. Empat
c. Tiga
d. Dua

7. Tiga benda yang permukaannya memiliki bentuk segi banyak adalah . . .
   a. Penggaris, buku, uang logam
   b. Penggaris, buku, uang kertas
   c. Buku, uang kertas, uang logam
   d. Buku uang logam, penggaris

8. Berapa banyak sisi dan banyak sudut dari gambar dibawah ini . . .

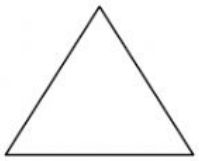

a. 3 dan 3
b. 3 dan 4
c. 4 dan 4
d. 5 dan 5

9. Berapa banyak sisi dan banyak sudut dari gambar dibawah ini . . .

a. 3 dan 4
b. 3 dan 4
c. 4 dan 4
d. 5 dan 5

10. Berikut yang merupakan gambar bukan segi banyak adalah . . .

a.

c. 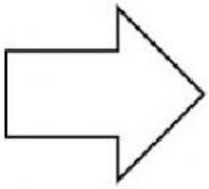

b.

d. 

-SELAMAT MENGERJAKAN-

-SEMOGA SUKSES-

UTAMAKAN KEJUJURAN