Proporcionalidad directa

1. Completa las tablas de proporcionalidad y une con el gráfico que corresponde.

Gasolina	Kilómetros
1	5
2	
	15
4	

Paletas	Dinero
1	
2	6
3	
	12

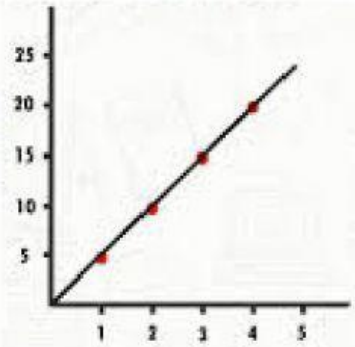

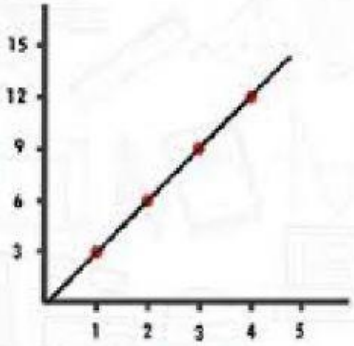

2. Completa las tablas de proporcionalidad .

litros	km
1	13
8	
11	
20	

horas	km
1	100
$\frac{1}{2}$	
$\frac{1}{4}$	
$2\frac{1}{2}$	

3.Completa la tabla de proporcionalidad y une en el gráfico el centro 0 con el punto que corresponde para representar la proporción.

Sobres	1	2	3
Figuritas			

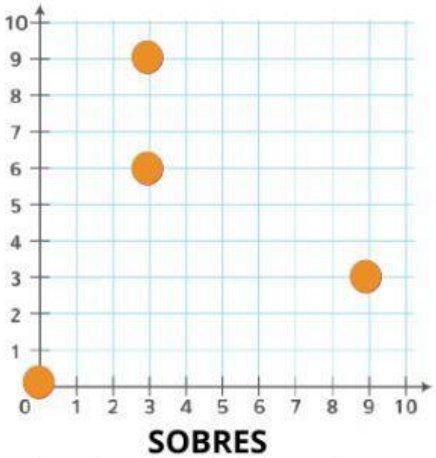

4. Completa las tablas de proporcionalidad teniendo en cuenta cada situación planteada.

l	$
12	223.20
1	
5	
7	
9	

÷12 ÷12

12 litros de gasolina cuestan $ 223.20
¿Cuánto cuestan 5, 7 y 9 litros?

En una pastelería se preparan 17 tortas en 3 días. Si continúa esta misma producción, ¿cuántas tortas se prepararán en 15 días?

DÍAS	TORTAS
15	
1	

RESPUESTA:

Seño Gime