مدرسة محمد نور ح 2

مادة: الرياضيات

الموضوع / الدوال الخطية

ورقة عمل رقم 1

اسم الطالب: صف: اليوم:

اختر الإجابة الصحيحة وقم بسحبها من أسفل إلى مكانها الصحيح

، حدد التمثيل البياني الصحيح للدالة الخطية الموضحة في كل جدول أدناه.

الدالة	التمثيل البياني

x	-4	0	4
y	-2	-1	0

x	-1	0	1
y	-5	-1	3

x	-4	0	4
y	0	1	2

التمثيل البياني C

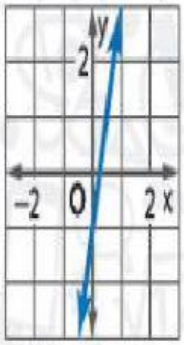

التمثيل البياني B

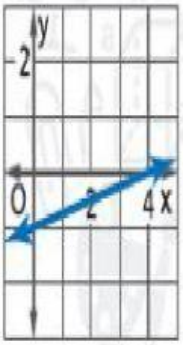

التمثيل البياني A

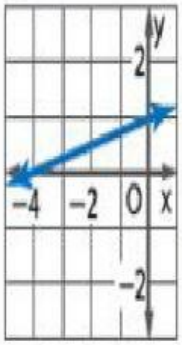

تحت اشراف الأستاذ جمال البري