Labelkan dengan perkataan yang diberikan.

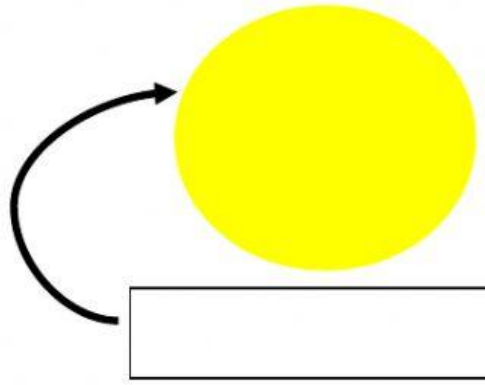

sisi melengkung

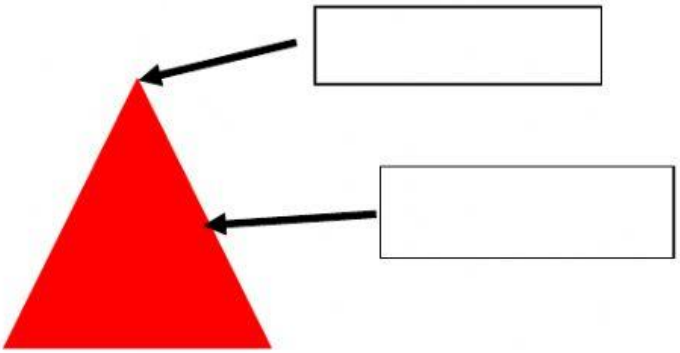

bucu	sisi lurus

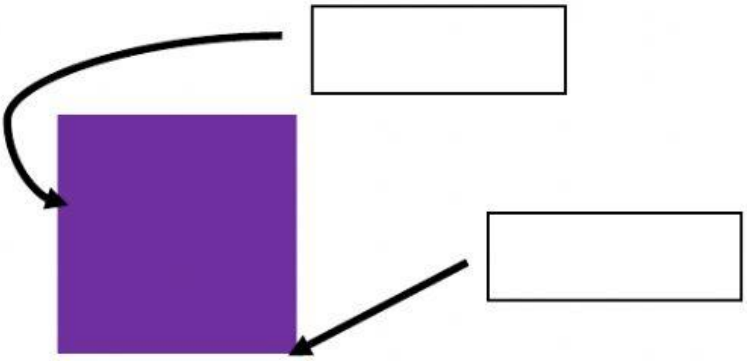

bucu	sisi lurus

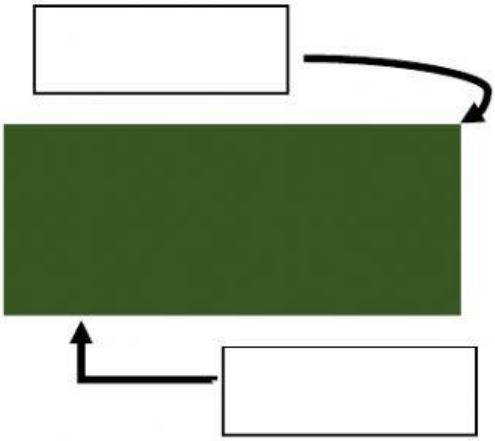

bucu	sisi lurus

Lengkapkan jadual yang berikut. Tuliskan bilangan dalam bentuk nombor. Murid perlulah tulis 0 sekiranya bentuk tersebut tidak mempunyai ciri seperti yang dinyatakan.

Bentuk 2D	sisi lurus	bucu	sisi melengkung
segi empat sama			
segi tiga			
bulatan			
segi empat tepat			

Pilih bentuk 2D di atas bagi melengkapkan pola berikut .

1. 

2. 

tahniah kerana berjaya menyiapkan tugasan yang diberikan