ورقة عمل تفاعلية للصف الثامن لمادة العلوم لدرس نوعا الدوائر الكهربائية للفصل الدراسي الأول

أولاً: صل بين الصورة ونوع الدائرة الكهربائية:

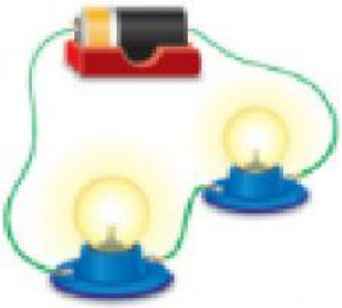

دائرة توالي

دائرة توازي

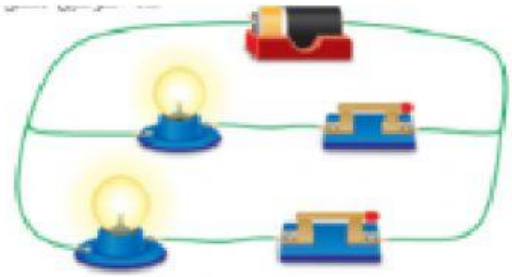

ثانياً: قارن بين التوصيل على التوالي والتوازي بإكمال الجدول التالي :

وجه المقارنة		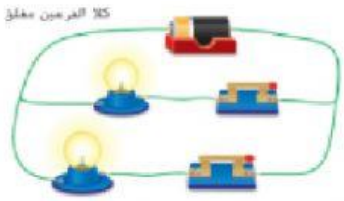
نوع التوصيل (توالي / توازي)		
مسار التيار الكهربائي (واحد / أكثر من مسار)		
أثر تلف أو إزالة أحد المصابيح		