State of Palestine
Ministry of Education
Directorate of Bethlehem

بسم الله الرحمن الرحيم

دولة فلسطين
وزارة التربية والتعليم
مديرية التربية والتعليم / بيت لحم
مدرسة بنات الرشايدة الثانوية

التاريخ : ..... ورقة عمل في حجم متوازي المستطيلات وحجم المكعب للصف السابع الاسم : .....

- هيا نحسب حجم المجسمات التالية:

المجسم	حجمه
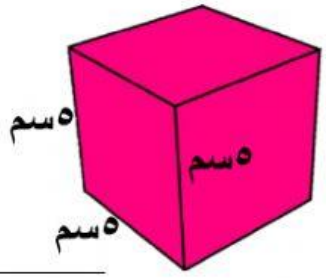	سم^{٣}
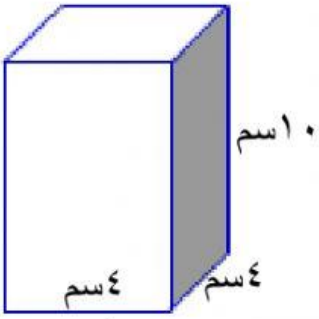	سم^{٣}
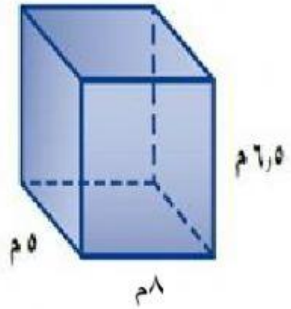	م^{٣}

- مكعب حجمه ٨سم^{٣} فإن طول ضلعه ..... سم.
- متوازي مستطيلات قاعدته مربعة طول ضلعها ٥سم وحجمه ١٠٠سم^{٣} فإن ارتفاعه = ... سم.

انتهت الأسئلة
معلمة المادة : ضحى أحمد الجواريش