Звірята перевіряють свої запаси на зиму. Які числа має записати Білочка у □ ?

2 → 1, 1

3 → 2, □



4 → 3, □



4 → □, 2



5 → 4, □

5 → □, 2