UPSR模拟题：

(A) 选出正确的答案。

1. 图 1 显示一个坐标平面。

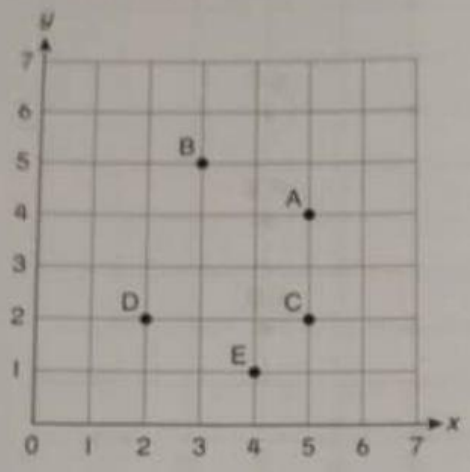

图1

哪两个字母的坐标离 X 轴的距离是一样的？

A A和C
B A和D
C B和C
D C和D

2. 图 2 显示各种水果的位置。

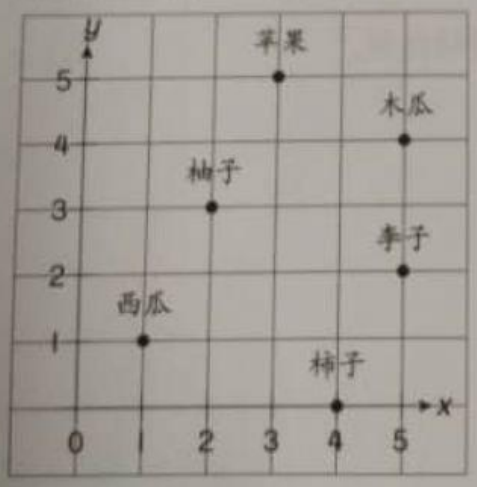

图2

柚子的坐标是什么？

A (2,3)　　B (3,2)
C (3,5)　　D (5,3)

3. 图 3 显示各种动物的位置。

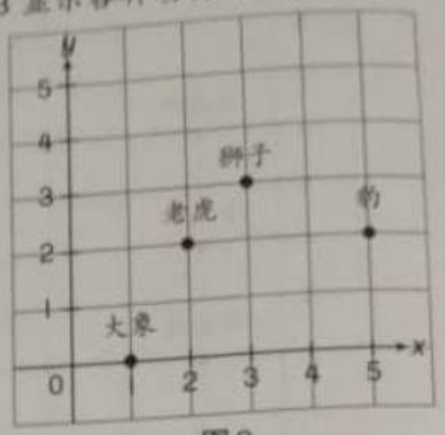

图3

哪种动物的坐标是 (5,2)？

A 狮子　　B 老虎
C 大象　　D 豹

4. 下列哪些坐标离 Y 轴的距离是不一样的？

I (3,4)　　II (3,5)
III (4,4)　　IV (4,2)

A I和III　　B I和IV
C II和III　　D II和IV

5. 图 4 显示一个坐标平面。

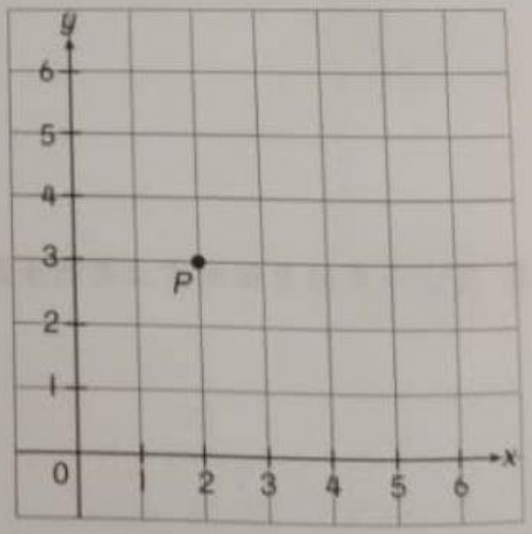

图3

用直线把 P 点，与 Q 点和 R 点连在一起，以形成一个等边三角形。