Matematika

Vypracovala: Daniela Metznerová

Povídání o Zajdovi Pajdovi

Zajda Pajda bydlí v dřevěném domečku na paloučku. Pomůžeš Zajdovi spočítat, kolik jeho domeček obsahuje geometrických tvarů?

Domeček má celkem: ☐



Zajda Pajda šel na procházku do lesa, během procházky potkal hodně svých přátel. Nezdržoval se s nimi však, protože už byl daleko od svého domečku a pomalu ho začínal trápit hlad. Cesta domů byla dlouhá, takže mu pořádně vyhládlo. Hned jak přišel, spořádal celou spíž mrkve.

1. Spočítej a zapiš, kolik Zajda potkal po cestě přátel.

= ☐

= ☐

= ☐

2. Kolik celkem přátel Zajda Pajda potkal? (Sečti všechny zvířátka) . ☐



Zajda Pajda měl takový hlad, že ze spíže vyjedl všechny zásoby. Můžeš mu pomoct spočítat, kolik mrkviček snědl?

Zajda Pajda už dobře ví, kolik mrkve mu chybí…

4. ROZHODNI, ZDA JSOU TVRZENÍ PRAVDIVÁ NEBO NEPRAVDIVÁ (ano, ne)

Všechny odpovědi najdeš v povídání

- ☐ Zajda Pajda bydlí ve městě
- ☐ Zajda Pajda je ve skutečnosti zajíc
- ☐ Zajda Pajda má mezi svými kamarády i Lišku Lidušku
- ☐ Zajda Pajda má celkem 15 přátel
- ☐ Zajda Pajda nesnědl všechny zásoby mrkve, co ve spíži měl

Příklady pro starší děti

1. Vyber z nabídky znaménko (pokud je potřeba vypočítej, a pak porovnávej): < > =

3	☐	5	12+30	☐	25+17
9	☐	7	66+33	☐	44+55
17-10	☐	3+4	15/5	☐	3*5
21*3	☐	2*10			

2. Porovnej obrázky a doplň znaménko.



3. Příklady vypočítej a přiřaď je ke správnému výsledku (spoj šipkami)

22+4-(5*3)+(6-2)=	818
3+2+5+9-6-2-1+3+7+8+4-9-6-2*0=	7
2*5+4*2+15/5-36/3=	17
1+2+3+4+5+6+7+8+9-1-2-3-4-5-6-7-8-9=	9
3*(2+6+5+8+9+6-25)+4*(100+100)=	0

4. Z následující tabulky vyber pouze sudá čísla.

20	14	0	35
13	100	3	67
16	91	52	88

5. Napiš číslo slovem:

2-

46-

12-

25-