Урок26. Додаємо і віднімаємо числа частинами

10

1. Доповни або зменш числа до 10.

5+ ☐	8+ ☐	15- ☐	7+ ☐	17- ☐
14- ☐	12- ☐	6+ ☐	20- ☐	11- ☐

2. Розмісти вантаж на відповідні автомобілі.

48	37	62	29	70

3. Розв'яжи задачу.

Марійка і Петрик йшли зі школи. Йшов дощик. Діти рахували людей у яких були парасольки. Марійка нарахувала 7 осіб з парасольками, а Петрик 9. На скільки більше парасольок помітив Петрик?

☐ ☐ ☐ = ☐

Відповідь: на ☐ парасольки

4. Поміркуй, де чия чашка?

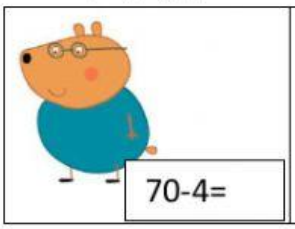 70-4=	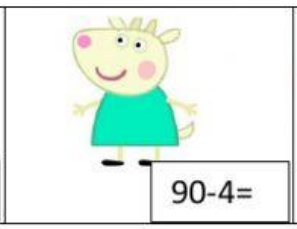 90-4=	 50-4=	 40-4=

86	66	36	46