1. Με τη βοήθεια του μοιρογνωμονίου πάνω στις γωνίες και να μετρήσετε πόσες μοίρες είναι οι παρακάτω γωνίες.

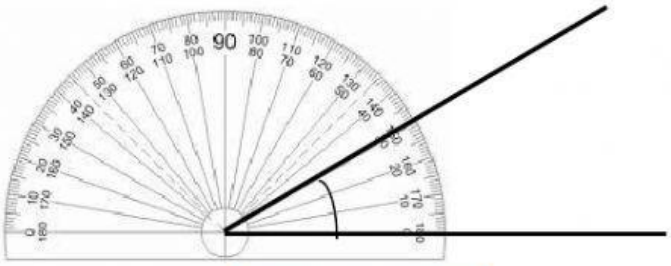

…… μοίρες

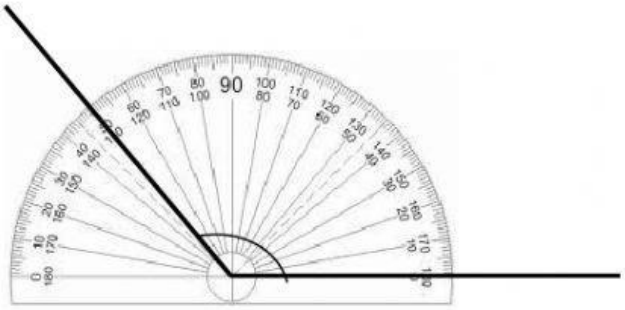

…….. μοίρες

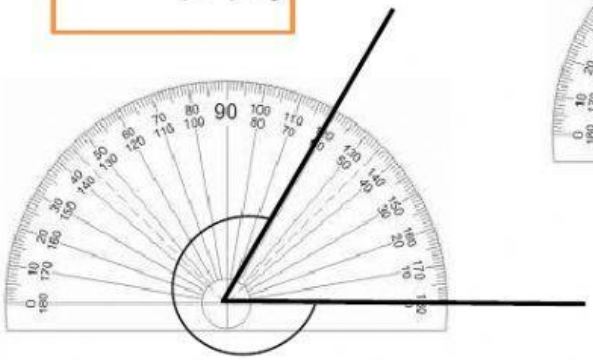

…….. μοίρες

2. Χωρίς να μετρήσετε να βρείτε πόσες μοίρες είναι οι παρακάτω γωνίες.

α)

..... μοίρες

β)

..... μοίρες

γ)

..... μοίρες

..... μοίρες

liveworksheets.com

3. Να ενώσετε τα κομμάτια του πάζλ πάνω στο μπλε κουτί έτσι ώστε να ξεκινάμε από την πιο μικρή γωνία και να καταλήγουμε στην πιο μεγάλη.

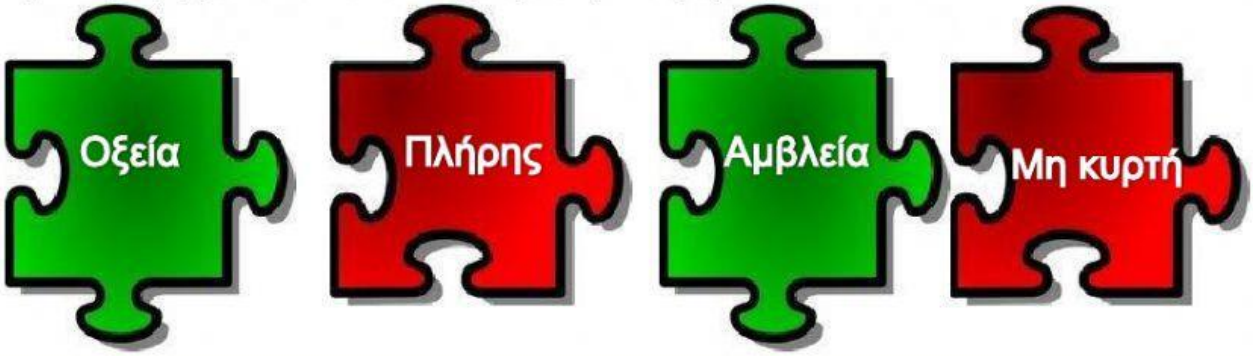

liveworksheets.com