32. orria

1.- Jarri zure inguruan aurkitzen diren bi poliedro desberdinen izenak.

2.-Esan irudi hauek moztutakoan nola geldituko den irudia.

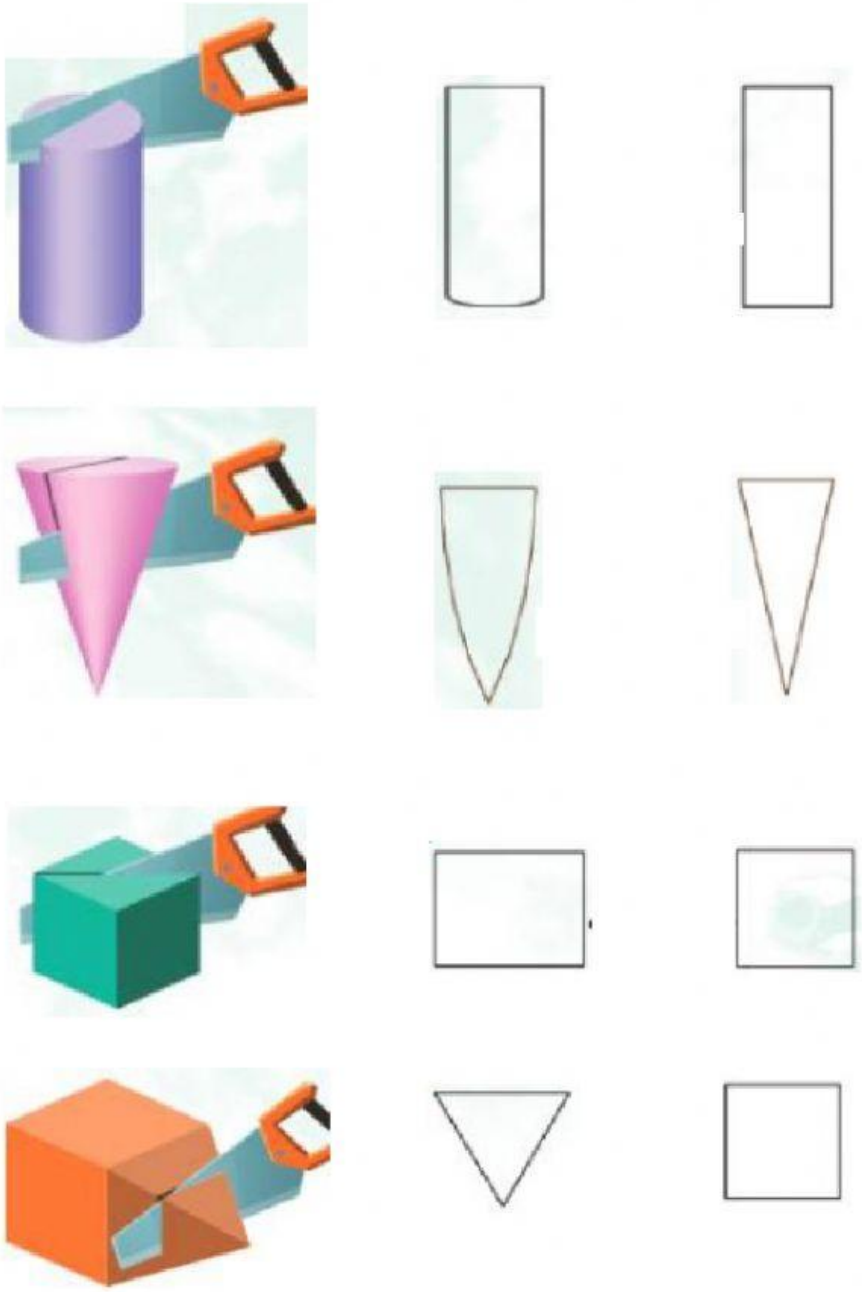

6.-Adierazi zein den irudi hauen oina eta albo aurpegia.

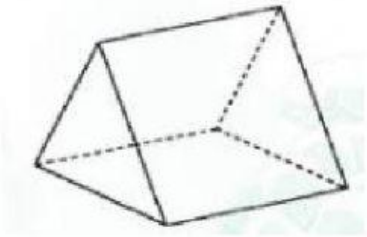

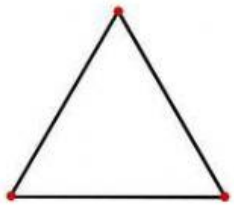

oina

albo aurpegia

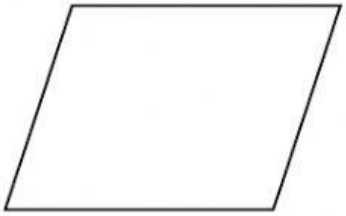

oina

albo aurpegia

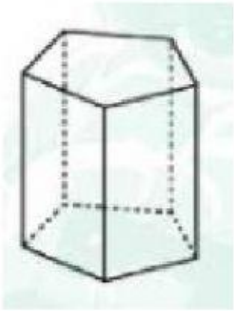

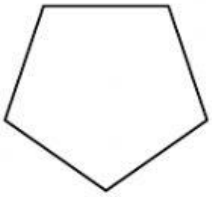

oina

albo aurpegia



oina

albo aurpegia

7.Osatu.

- Prisma honek _____ aurpegi , _____ ertz eta _____ erpin ditu.
- Oinak triangeluak laukiak pentagonoak hexagonoak laukizuzenak dira.
- Albo aurpegiak triangeluak laukiak pentagonoak hexagonoak laukizuzenak dira.

- Prisma honek _____ aurpegi , _____ ertz eta _____ erpin ditu.
- Oinak triangeluak laukiak pentagonoak hexagonoak laukizuzenak dira.
- Albo aurpegiak triangeluak laukiak pentagonoak hexagonoak laukizuzenak dira.

- Prisma honek _____ aurpegi , _____ ertz eta _____ erpin ditu.
- Oinak triangeluak laukiak pentagonoak hexagonoak laukizuzenak dira.
- Albo aurpegiak triangeluak laukiak pentagonoak hexagonoak laukizuzenak dira.

- Elizaren teilatua prisma piramide poligono erregular bat da.
- Oina 3 4 5 6 alde dituen poligonoa da.
- Albo aurpegiak triangeluak laukiak pentagonoak hexagonoak Laukizuzenak dira.
- _____ aurpegi, _____ ertz eta ____ erpin ditu.
- Teilatuari oin triangeluarra kuadringularra pentagonala hexagonala duen prisma batek eusten dio.