EVALUARE

1 a) Ordonează crescător numerele:
3, 15, 8, 30, 18

b) Ordonează descrescător numerele:
15, 20, 4, 29, 17

2 Colorează cu roșu cifra unităților:

22	18	25	13	18	10	5

3 Încercuiește numerele pare:

16 17 18 19 20 21 22 23 24 25 26

4 Scrie în casete numărul corespunzător, format din zeci și unități:

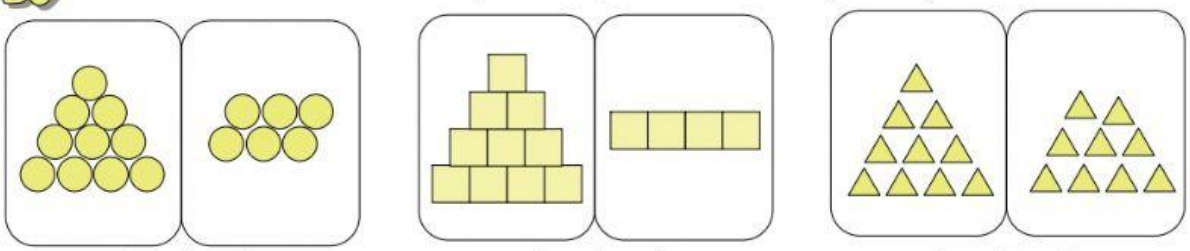

Z	U

Z	U

Z	U

5 Notează în casetă:

a) numărul merelor din interiorul lăzii



b) numărul lalelelor în poziție verticală

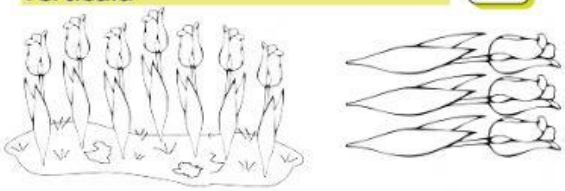

6 Găsește „drumul" fierului de călcat către priză! Colorează casetele în care sunt scrise numere care au cifra unităților mai mare decât cifra zecilor.

13	10	22	30
17	19	20	28
25	14	11	16
13	27	29	26

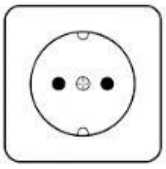

Autoevaluează-te!

FB

B

S