مدرسة القادسية النموذجية للبنين

المــادة : الحوسبة وتكنولوجيا المعلومات

ورقة عمل اثرائية

1-صل العبارة المناسبة في العمود (أ) بما يناسبها من الصور في العمود(ب):

(أ)	(ب)
أصبحت الحواسيب صغيرة و خفيفة	●
من اشكال الحواسيب	●
الملف الرقمي الذي يتم انشاؤه عندما تقوم بالكتابة على لوحة المفاتيح هو:	● 
هو جهاز يتكون من زر أيمن و زر أيسر و عجلة التمرير:	●
يجب على المستخدم الحفاظ على نظافة المكتب والحاسوب بتجنب وجود .....أثناء استخدام الحاسوب	●

2-ضع دائرة حول الإجابة الصحيحة فيما يلي :

1- لطباعة الملفات نستخدم:

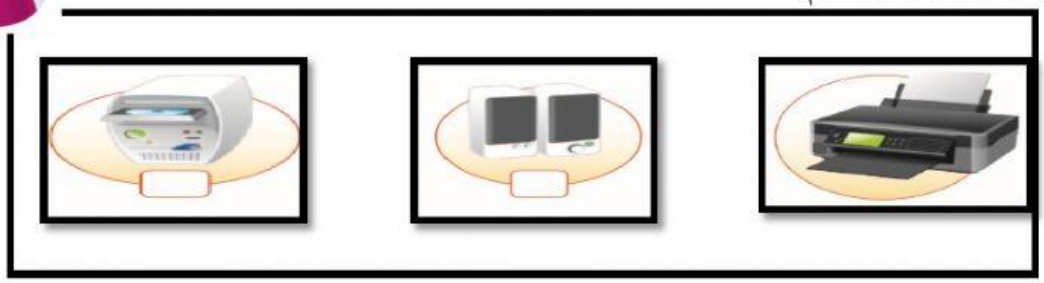

2.الحاسوب المكتبي هو:-

3.للاستماع الى الملفات الصوتية نستخدم:

4- يمكن ان نستخدم الحاسوب المكتبي في السوق:

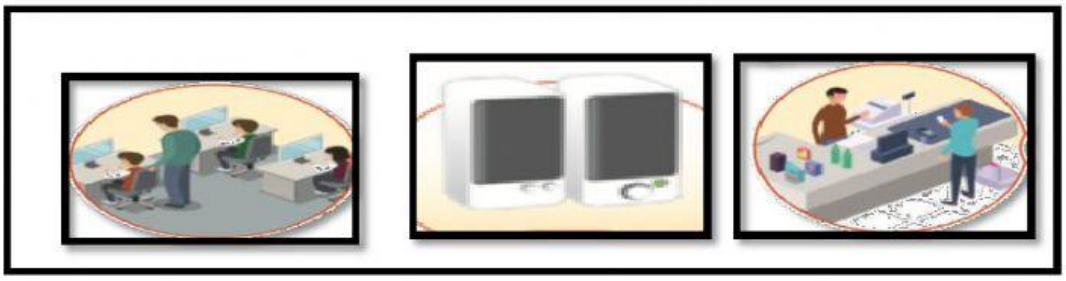

5- يمكن ان نستخدم الحاسوب المكتبي في المدرسة :

3-ضع دائرة حول الإجابة الصحيحة فيما يلي :

1- جهاز لوحة المفاتيح هو:

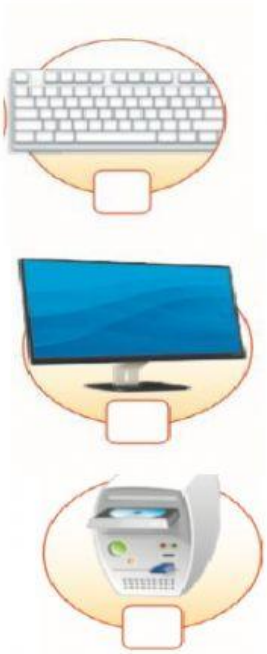

2- جهاز وحدة النظام هو:

3- 3 وضعية الجلوس الصحيحة أمام جهاز الحاسوب تمثلها الصورة التالية:

4- اختر صور الأشياء التي يجب تجنب وجودها بجانب الحاسوب :
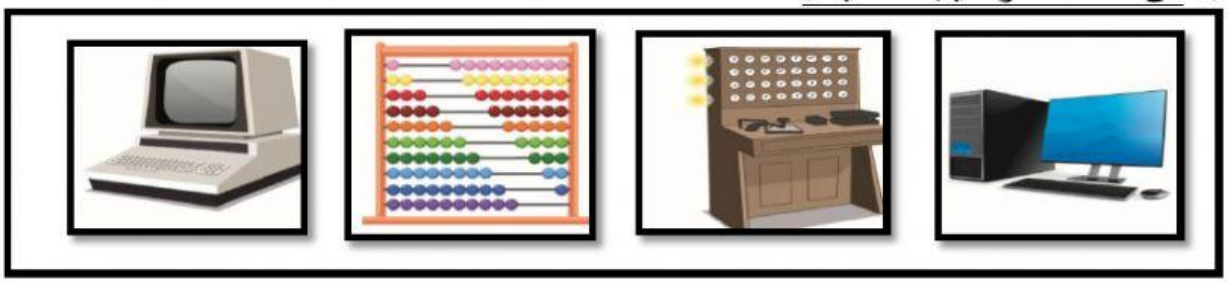
5- من امثلة الحواسيب الحديثة: