Name : _____

Date : _____

Integrated Learning

Nilai tempat

Banyak benda lebih mudah dihitung dengan cara pengelompokan.

Perhatikan contoh berikut :

10 10 10 10 3

Kayu dikelompokkan menjadi 10 setiap ikat. Jadi banyak kayu ada 43 batang ya.

SD Tumbuh – Jogja Educational Spirit	Teacher's feedback:
Kelas : Lower A	
Inquiry : Diversity	
Mata Pelajaran : Integrated Learning	

Name : _____

Date : _____

sekolah tumbuh
jogja educational spirit

Simaklah penjelasan berikut ini

Dari video diatas dapat kita ketahui bahwa

Setiap angka pada bilangan memiliki nilai yang berbeda tergantung tempatnya.

SD Tumbuh – Jogja Educational Spirit Kelas : Lower A Inquiry : Diversity Mata Pelajaran : Integrated Learning	Teacher's feedback:

Name : _____

Date : _____

sekolah tumbuh
jogja educational spirit

Kerjakan soal berikut ini

Tuliskan bilangan sesuai banyak benda!

Setiap ikat banyaknya 10 batang kayu!

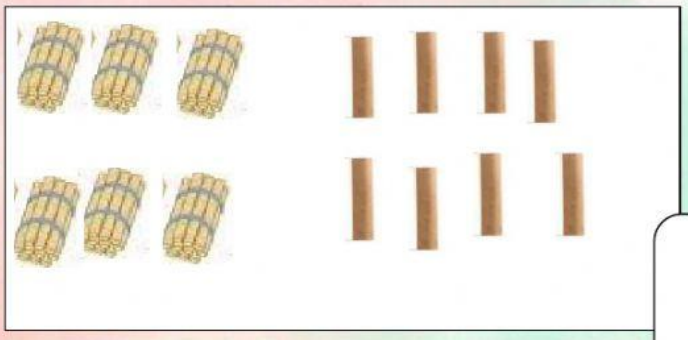

Perhatikan gambar berikut!

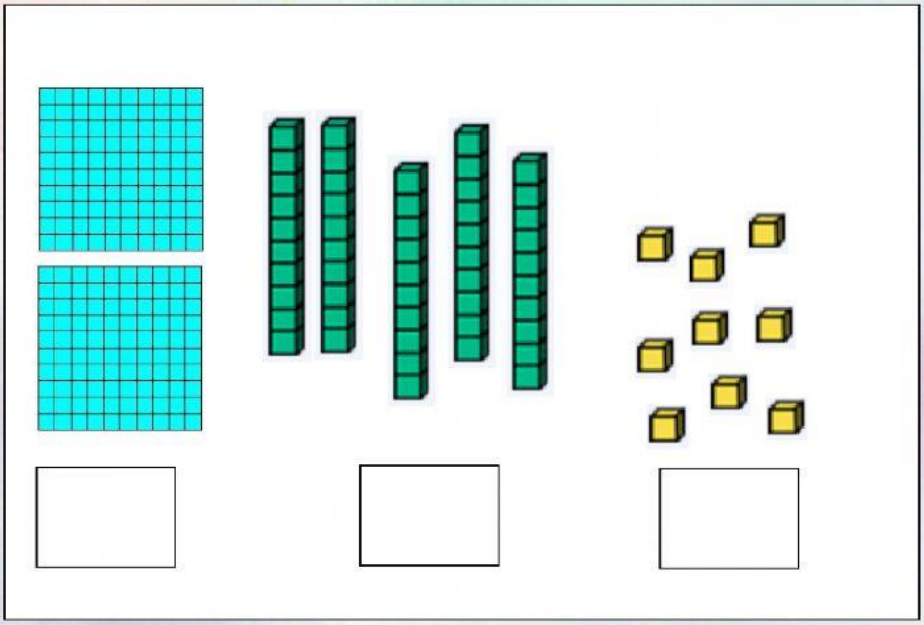

Banyaknya kubus ada _____

Bilangan tersebut dibaca _____

SD Tumbuh – Jogja Educational Spirit Kelas : Lower A Inquiry : Diversity Mata Pelajaran : Integrated Learning	Teacher's feedback:

Name : _____

Date : _____

sekolah tumbuh
jogja educational spirit

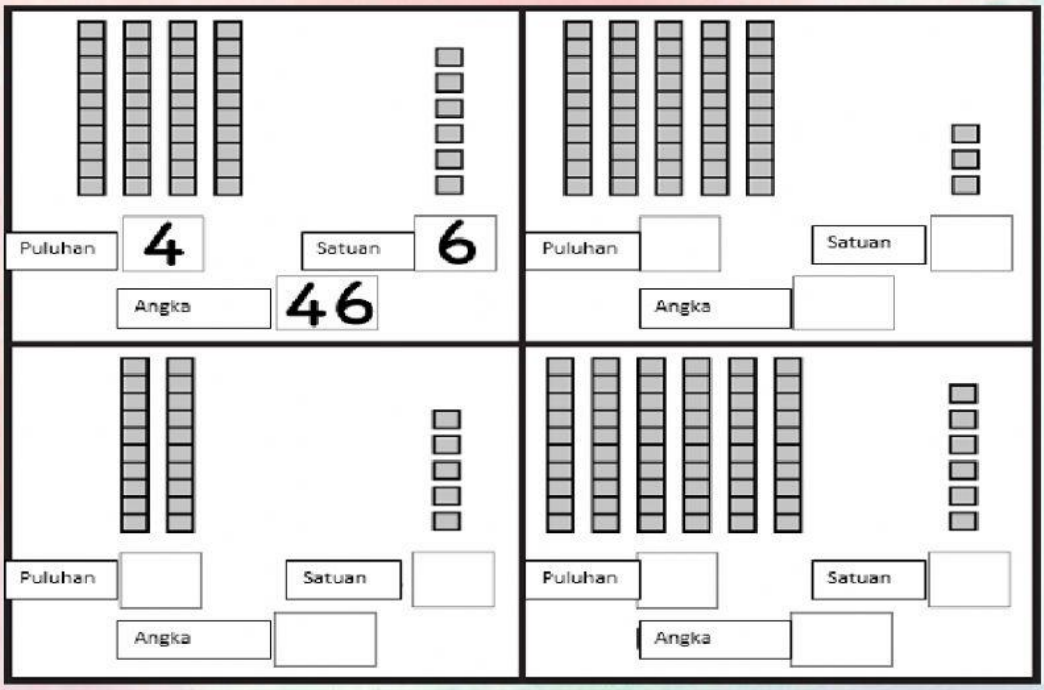

248		
Ratusan	Puluhan	Satuan

754		
Ratusan	Puluhan	Satuan

307		
Ratusan	Puluhan	Satuan

853		
Ratusan	Puluhan	Satuan

652		
Ratusan	Puluhan	Satuan

341		
Ratusan	Puluhan	Satuan

SD Tumbuh – Jogja Educational Spirit	Teacher's feedback:
Kelas : Lower A Inquiry : Diversity Mata Pelajaran : Integrated Learning	

Name : _____

Date : _____

sekolah tumbuh
jogja educational spirit

Tentukan nilai tempat dari bilangan di bawah ini!

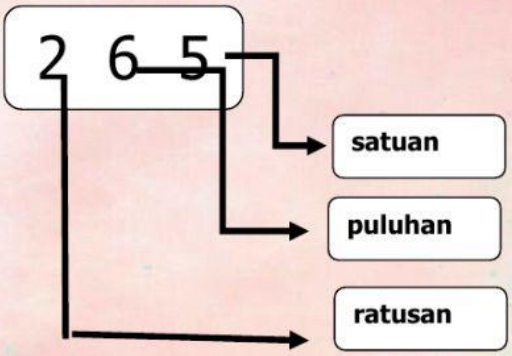

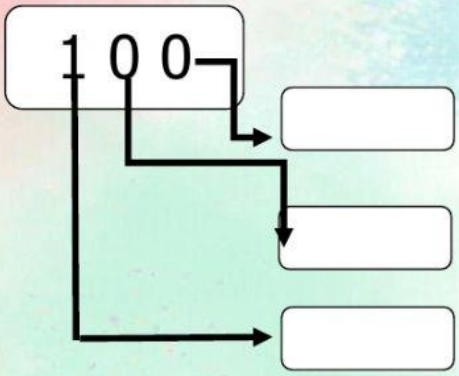

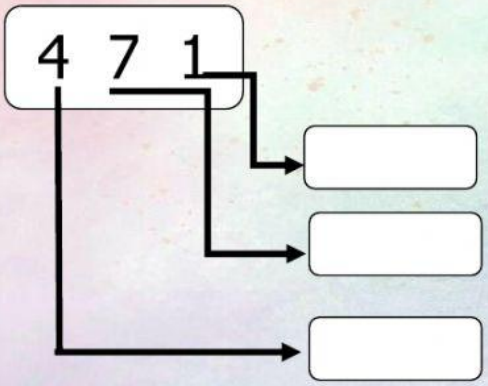

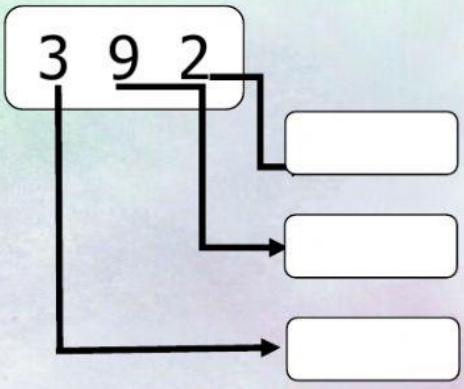

SD Tumbuh – Jogja Educational Spirit Kelas : Lower A Inquiry : Diversity Mata Pelajaran : Integrated Learning	Teacher's feedback:

Name : _____

Date : _____

sekolah tumbuh
jogja educational spirit

Tentukan nilai angka dari bilangan di bawah ini!

2 0 5

Nama bilangan dua ratus lima

Nilai angka 2 adalah 200

Nilai angka 0 adalah 0

Nilai angka 5 adalah 5

1 7 9

Nama bilangan ....

Nilai angka 1 adalah ....

Nilai angka 7 adalah ....

Nilai angka 5 adalah ....

4 9 3

Nama bilangan ....

Nilai angka 4 adalah ....

Nilai angka 9 adalah ....

Nilai angka 3 adalah ....

7 4 0

Nama bilangan ....

Nilai angka 7 adalah ....

Nilai angka 4 adalah ....

Nilai angka 0 adalah ....

Isilah titik-titik dibawah ini!

1. Nilai tempat angka 7 dari bilangan 178 adalah ....
2. Angka 6 pada bilangan 186 menempati nilai tempat ....
3. Nilai angka 3 pada bilangan 361 adalah ....
4. Nilai angka 0 pada bilangan 406 adalah ....
5. Nilai tempat puluhan pada bilangan 871 adalah angka ...

SD Tumbuh – Jogja Educational Spirit	Teacher's feedback:
Kelas : Lower A Inquiry : Diversity Mata Pelajaran : Integrated Learning	