SEKOLAH DASAR ISLAM TERPADU (SDIT)
IMAM SYAFII CENDIKIA (ISC)
PEKANBARU – INDONESI

Alamat: Jl. SoekarnoHatta, RT. 02/RW. 10, Kel. Maharatu, Kec. Marpoyan Damai, 28125, Pekanbaru-Riau. Telp: 08117595953

Hari / Tanggal	**: Kamis /15 Oktober 2020**
Bidang Studi	**: Tematik**
PH Ke / Smtr	**: 7 / Ganjil**
T. P	**: 2020 / 2021**
Materi	**: Tema 3 Subtema 1 dan 2**

Nama :				
Kelas : **III Khalid Bin Walid**				
KKM	**Nilai**	**Remedi**	**Paraf**	
			Guru	**Orang Tua**

Jawablah pertanyaan di bawah ini dengan jawaban yang tepat!

PKn 3.1 (KKM 72) | Nilai =

1. Lambang sila ke empat pancasila adalah....

a.

b.

c.

2. Musyawah merupakan pengamalan pancasila sila ke ....

   a. 5

   b. 4

   c. 3

3. Keputusan yang disepakati dalam musyawarah lebih mengutamakan kepentingan ……

   a. satu orang

   b. dua orang

   c. banyak orang

4. Sikap tolong menolong akan menumbuhkan sikap .....
   a. rasa saling peduli
   b. saling membenci
   c. saling memusuhi

5. Yang bukan manfaat gotong royong adalah ....
   a. menumbuhkan rasa persatuan adn kesatuan
   b. menumbuhkan rasa iri hati
   c. menumbuhkan rasa persaudaraan dan kebersamaan

6. Contoh tolong menolong di masyarakat adalah
   a. piket kelas
   b. membangun pos ronda
   c. membersihkan halaman rumah

B Indonesia 3.1 (KKM 72) | Nilai =

Bacalah teks berikut ini !

Benda dari kayu

Kayu berasal dari batang pohon yang ditebang. Kayu memiliki kelebihan dan kekurangan. Kelebihan kayu adalah memiliki sifat keras, kuat, mudah dibentuk, dan tahan lama. Kekurangan kayu adalah memiliki sifat yang muda lapuk.

Kayu dimanfaatkan dengan memerhatikan kelebihan dan kekurangannya. Sifat kayu yang keras, kuat, mudah dibentuk, dan tahan lama. Dimanfaatkan untuk membuat perabot rumah. Kita dapat melihat meja, kursi, dan lemari yang terbuat dari kayu. Namun kayu memiliki kekurangan yaitu mudah lapuk. Kekurangan tersebut dapat diatasu dengan melapisi kayu menggunakan cat. Dengan dilapisi cat, kayu menjadi lebih tahan lama.

7. Kelebihan kayu adalah……
   a. mudah lapuk
   b. mudah dibentuk
   c. mudah hancur

8. Kekurangan kayu adalah .....
   a. bersifat keras
   b. bersifat kuat
   c. mudah lapuk

9. Salah satu manfaat kayu adalah .....
   a. untuk membuat berabot rumah
   b. untuk membuat tas
   c. untuk membuat sepatu

10. Agar kayu tidak mudah lapuk maka .....
   a. dilapisi cat
   b. dilapisi besi
   c. dilapisi mentega

11. Pernyataan yang sesuai dengan teks di atas adalah ……
   a. kayu memiliki kelebihan mudah lapuk
   b. kayu memiliki kelebihan mudah hancur
   c. kayu memiliki kekurangan mudah lapuk

12. Kayu termasuk benda .....
   a. padat
   b. cair
   c. gas

MTK 3.7 (KKM 72) | Nilai =

13. Hasil dari pengukuran di bawah ini adalah .....

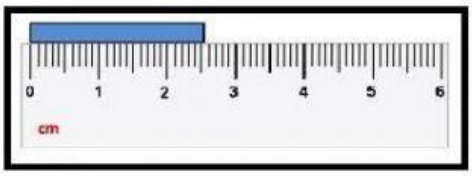

   a. 2 cm
   b. 2,5 cm
   c. 3 cm

14. Kesetaraan satuan baku berikut adalah **3 m = ... cm**
   a. 30 cm
   b. 300 cm
   c. 3.000 cm

15. Kesetaraan satuan baku berikut adalah **5 cm = ... mm**
   a. 50 mm
   b. 500 mm
   c. 5.000 mm

16. Berat benda di bawah ini adalah .....

a. 40 gram
b. 400 gram
c. 4.000 gram

17. Kesetaraan satuan baku berikut adalah **3 km = ... m**

a. 30 m
b. 300 m
c. 3.000 m

18. Kesetaraan satuan baku berikut adalah **8 kg = ... g**

a. 80 g
b. 800 g
c. 8.000 g

PJOK 3.3 (KKM 72) Nilai =

19. Gambar berikut adalah kegiatan....

a. bola kasti
b. bola kayu
c. bola volly

20. Gambar berikut adalah kegiatan....

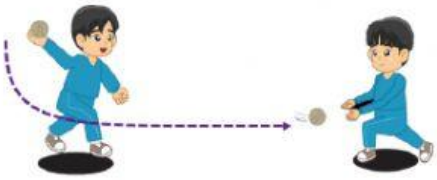

a. melempar bola atas
b. melempar bola datar
c. melempar bola bawah

21. Gambar berikut adalah kegiatan....

a. melempar bola atas

b. melempar bola datar

c. melempar bola bawah

22. Gambar berikut adalah kegiatan....

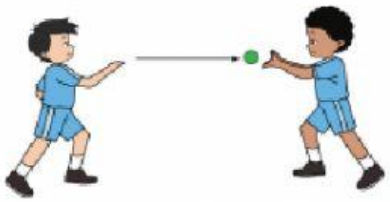

a. melempar bola atas

b. melempar bola datar

c. melempar bola bawah

23. Gambar berikut adalah kegiatan....

a. gerak dasar melempar bola

b. gerak dasar menangkap bola

c. gerak dasar menendang bola

24. Gambar berikut adalah kegiatan....



a. gerak dasar melempar bola

b. gerak dasar menangkap bola

c. gerak dasar menendang bola