Atividade de Matemática

1- Marcos é um fazendeiro nato e conhecido na serra da Perua . Ele abastece os frigoríficos de Araripe, vendendo seus animais . Ele tinha 2440 cabeças de gado e vendeu para 4 frigoríficos. Quantos gados cada um dos frigoríficos irão receber?



2- Joana possui uma confeitaria, onde costuma também fazer salgados para a venda. Um casal de noivos a contratou para fazer salgados para a festa de casamento deles. Eles pediram 2868 salgados para serem colocados em 2 travessas. Quando Joana for distribuir os salgados, quantos terão em cada travessa?

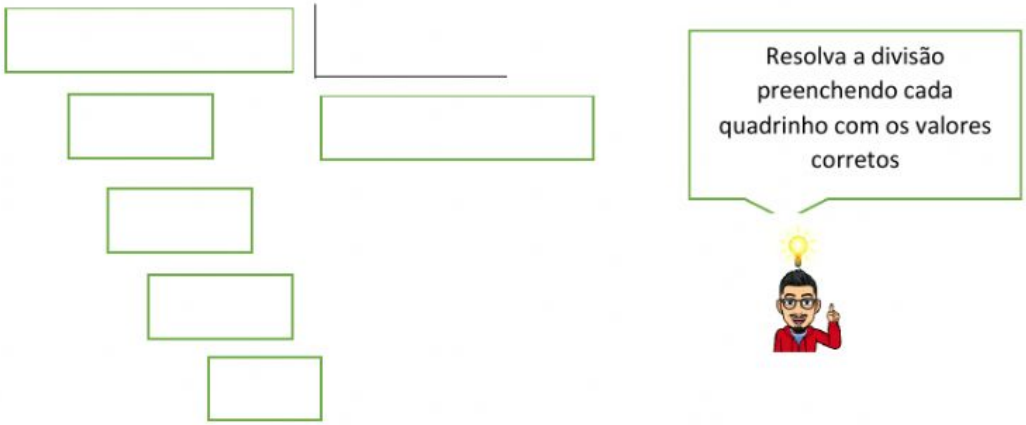
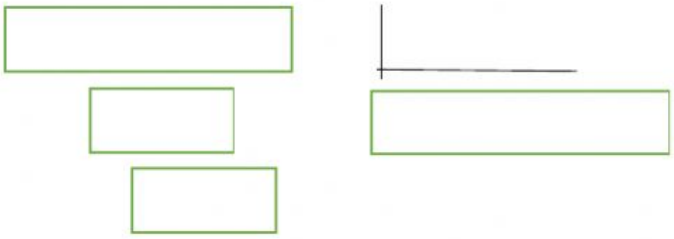
3- Emilly é uma mulher muito rica e que gosta de ajudar os necessitados. Ela possui várias lojas em Exu de roupas e decidiu no dia das crianças presentear muitas crianças com roupas na serra da Perua. Para isso verificou quantas crianças tinham nas casas daquela localidade e descobriu que havia 3 crianças em cada casa. Se Emilly tem 168 roupas a serem distribuídas em cada casa, quantas roupas cada casa irá receber por crianças?