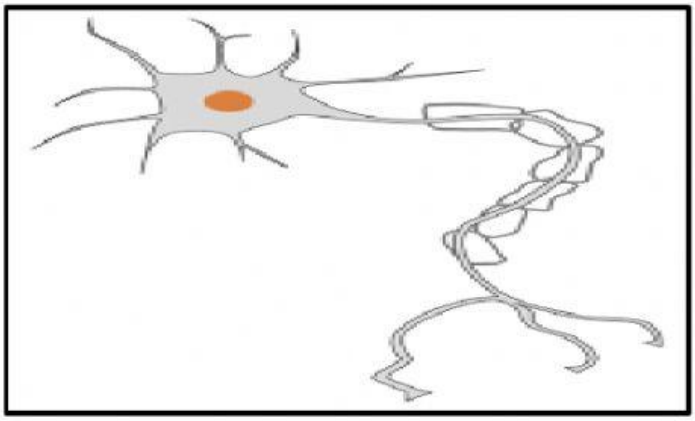
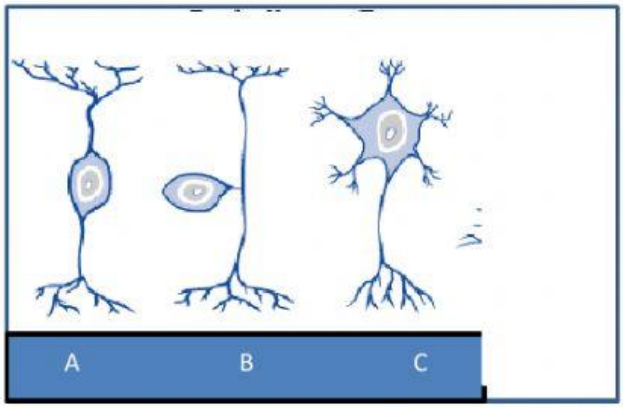
நரம்பு மண்டலம்



1.நரம்புச்செல்லின் அடிப்படை அலகு_____



2.இந்த படத்தின் பெயர் நியூரான்களின் வகைகள் அதில்

A_____

B_____

C_____

3. மனிதர்களில் மூளையிலிருந்து _____இணை கபால நரம்புகள் உருவாகின்றன.

(அ)11 (ஆ) 12 (இ) 13

4.இருமுனை நியூரான்கள் காணப்படும் இடம்

(அ)கண் விழித்திரை (ஆ)பெருமூளைப் புறணி (இ) வளர்கரு

5. நமது உடலில் உள்ளவற்றுள் _____என்பது மிக நீளமான செல்லாகும்.

6.ரேன்வீர்கணுக்கள் காணப்படும் இடம்.

(அ)தசைகள் (ஆ)ஆக்சான்கள் (இ)சைட்டான்

7.நரம்பு மண்டலத்தின் உட்கூறுகள்

அ._____

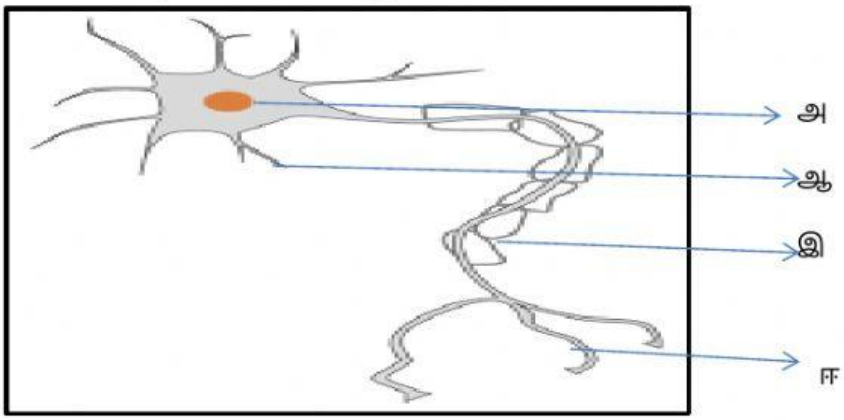
ஆ._____

இ._____

8.பெரிகேரியான் என்றும் அழைக்கப்படுவது _____

9.நரம்பு தூண்டல்களை சைட்டானை நோக்கிக் கடத்துவது_____

10.நியூரானின் அமைப்பு பாகங்களை குறி



அ_____

ஆ_____

இ_____

ஈ_____