TEMA: Simetría y Monotonía de Funciones

APORTE: Quiz 1

FECHA: _____

NOMBRE: _____

Señale el crecimiento y decrecimiento de la funcion g:

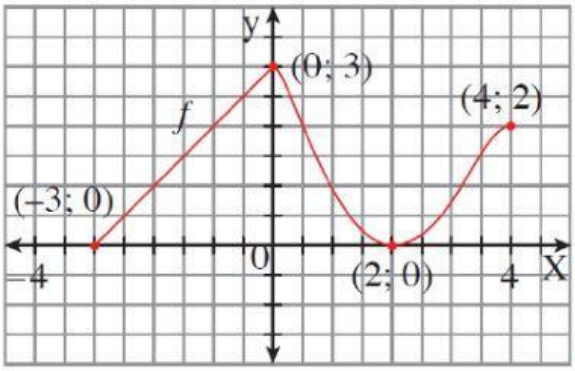

Intervalo	Crece, decrece o es constante
[,]	
[,]	
[,]	
Dominio	**Rango**
(,]	[,]

Determine cuál de las siguientes funciones son pares, impares o no tienen simetría:

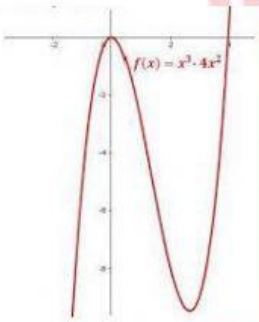

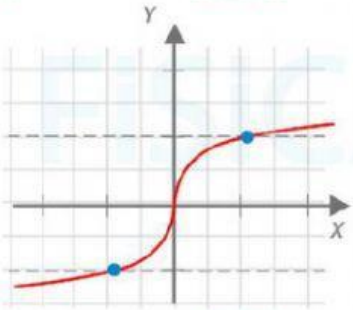

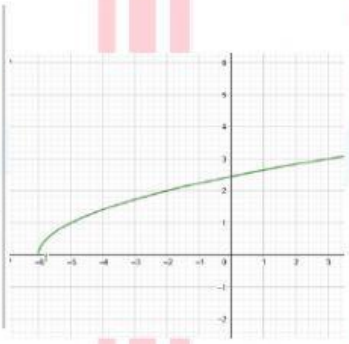

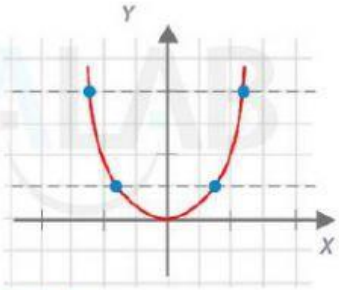

Sin realizar la gráfica determine si la función es par o impar o ninguna

$f(x) = 4x^3$

Procedimiento:	La función:

Autoevaluación: *¿Determino si una función es simétrica?*	SI	No
¿Determino los intervalos donde una función crece o decrece?	SI	No

¿Cómo se sintió al realizar la actividad?