Тиждень ДОСЛІДЖУЄМО СКЛАД ЧИСЛА 8

_____ (ім'я)

Запиши числа від 1 до 8. Знайди значення виразів.

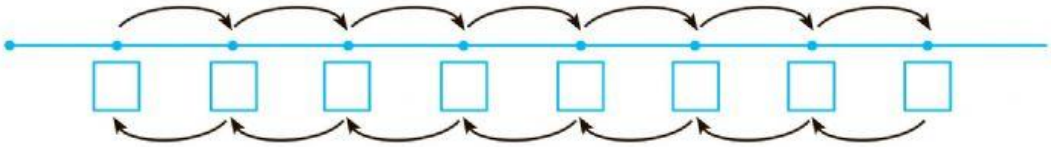

1 + 1 = .	2 + 1 = .	3 + 1 = .	4 + 1 = .
5 + 1 = .	6 + 1 = .	7 + 1 = .	5 − 1 = .
2 − 1 = .	3 − 1 = .	4 − 1 = .	9 − 1 = .

Порівняй числа.

9	8		5	8			2	3		4	10			7	4
6	4		6	7			6	5		1	8			9	5

До кожної схеми склади одну рівність на додавання, одну — на віднімання.

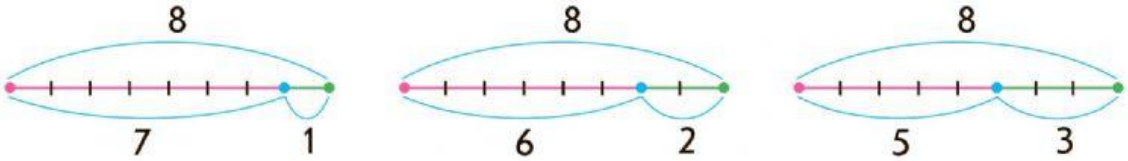

. + =	. + =	. + =
. − =	. − =	. − =

Добери до малюнка схему та вираз.

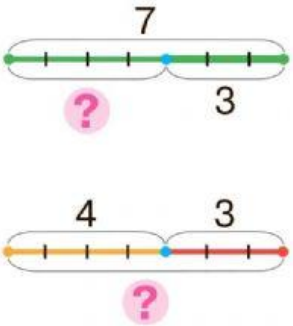



4 + 3

7 − 3