1. Marque com um **X** os poliedros e com um **Y** os corpos redondos

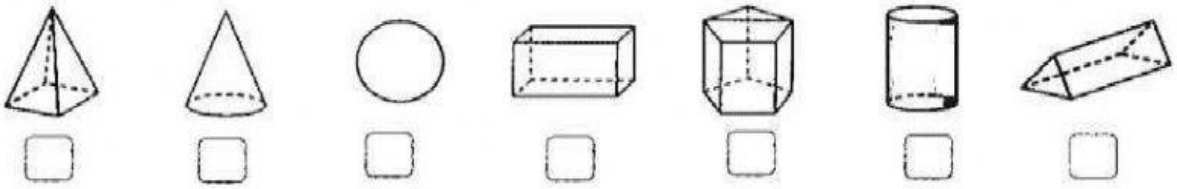

2. Escreva o nome dos seguintes sólidos geométricos.

a)

_____

b)

_____

_____

c)

_____

d)

_____

_____

3. Complete as frases escrevendo o nome dos sólidos geométricos correspondentes.

   a) Uma bolinha de tênis lembra um _____.
   b) Uma caixa de sapato lembra um_____.
   c) Uma lata de refrigerante lembra um _____.
   d) Um sorvete lembra um _____.

4. Observe as figuras e complete a tabela.

SÓLIDOS	NÚMERO DE FACES	NÚMERO DE VÉRTICES	NÚMERO DE ARESTAS
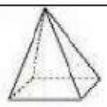			
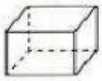			
			

5. Alex desenhou um sólido geométrico. Uma das faces é uma região quadrada. Qual desses sólidos ele pode ter desenhado?

   a) cone b) cilindro c) esfera d) pirâmide e) prisma