Recorda:

1r - Calcula la superfície de l'àrea de la base
2n - Multiplica el resultat de l'àrea de la base per l'alçada

1. Calcula el volum d'aquests prismes:

A) Prisma rectangular:

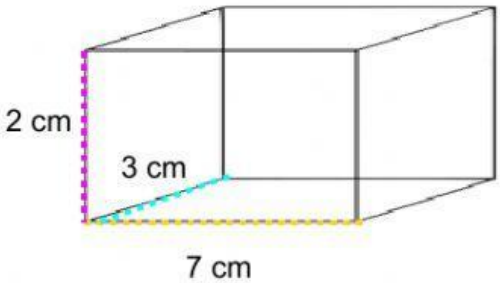

- Superfície de la base=

- Volum final del prisma=

B) Prisma triangular:

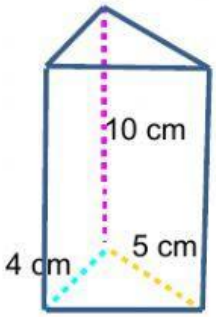

- Superfície de la base=

- Volum final del prisma=

C) PRISMA PENTAGONAL:

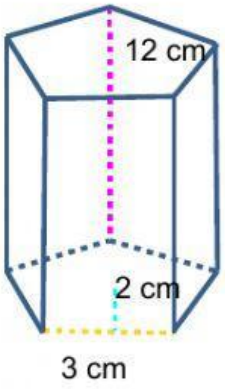

- Superfície de la base=

- Volum final del prisma=

D) Prisma rectangular:

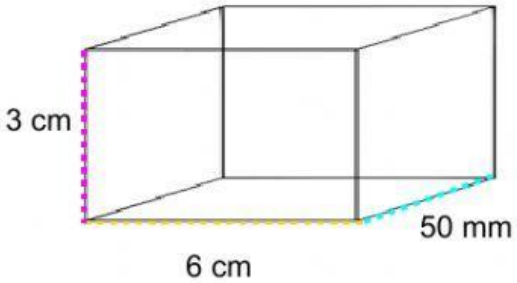

- Superfície de la base=

- Volum final del prisma=