# Тиждень 5

ДОДАЄМО І ВІДНІМАЄМО ЗА ЧИСЛОВИМ ПРОМЕНЕМ

_____ (ім'я)

Зоровий диктант. Що має бути наступним? Продовж ряд.

Знайди значення виразів, користуючись числовим променем.

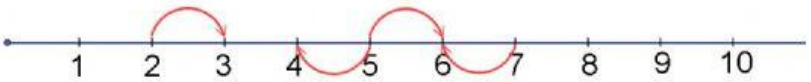


2 + 1 =  5 - 1 =  7 - 1 =  5 + 1 =

Знайди значення виразів, користуючись числовим променем.

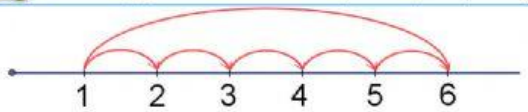


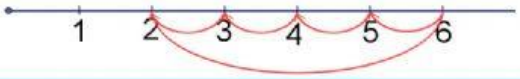


1 + 5 =  6 - 4 =

У Буквика було 6 яблук. Він з'їв 2 яблука. Скільки яблук залишилось у Буквика? Добери схему до задачі.

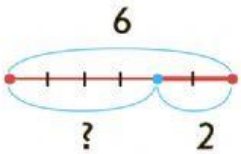


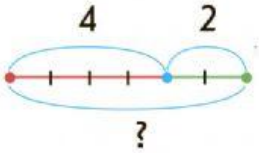


Запиши числа, які більше за 3, але менші за 8. Користуйся числовим променем.

. . . .