DE QUINA FIGURA ES TRACTA?

· De les figures que trobareu, decidiu si són prismes o piràmides:

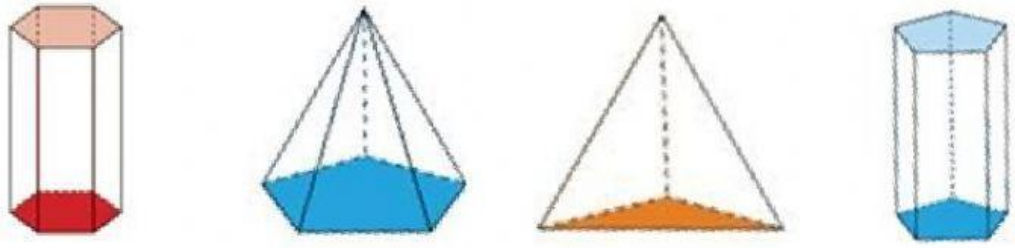

· Relacioneu cada descripció amb el nom de la figura que correspon:

- Piràmide hexagonal	Té 6 cares, 8 vèrtexs i 12 arestes.
- Esfera	Les bases són triangles, té 3 cares laterals, 6 vèrtexs i 9 arestes.
- Prisma triangular	La base és un hexàgon, té 6 cares laterals, 7 vèrtexs i 12 arestes.
- Cub	Té una base rodona i 1 vèrtex.
- Con	No té cap costat, vèrtex ni aresta.

· Escriviu el nom de les figures següents:





· Relacioneu cada dibuix amb el nom corresponent:

Esfera

Piràmide quadrangular

Cub

Prisma quadrangular

Prisma triangular