Діагностична робота № 3 (тренувальна)

« Розв'язуємо складені задачі»

1. Прочитай задачу . Доповни схеми числовими даними.

У хлопчика було 5 машинок. Тато подарував йому 4 машинок , а мама – ще 6 машинки. Скільки машинок стало у хлопчика **?**

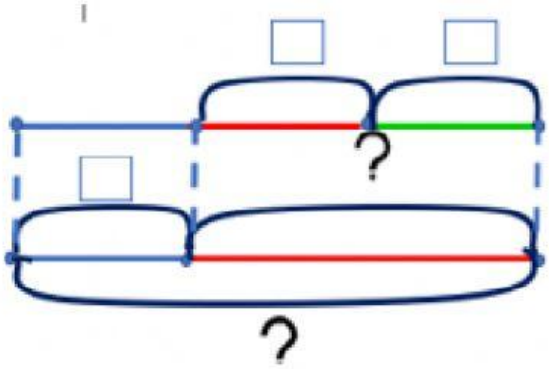

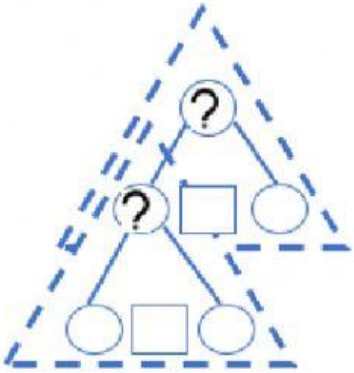

2. Прочитай задачу. Її можна розв'язати кількома способами. Напиши розв'язання двома способами за поданим планом.

У спортивному залі займалися 7 учнів. До них приєдналися ще 6 дівчаток і 3 хлопчики. Скільки всього дітей стало в спортзалі?

І спосіб

План розв'язування

1) Скільки всього дітей приєдналися ?

☐☐☐☐☐ ( )

2) Скільки всього дітей стало в спортзалі ?

☐☐☐☐☐☐ ( )

ІІ спосіб

План розв'язування

1) Скільки в спортзалі стало дітей, коли приєдналися дівчатка ?

☐☐☐☐☐☐ ( )

2) Скільки всього дітей стало в спортзалі , коли приєдналися ще й хлопчики ?

☐☐☐☐☐☐☐ ( )

3. Склади і запиши коротку умову задачі. Розв'яжи задачу.

У 2 – А класі навчаються 9 дівчаток , а хлопчиків – на 4 більше .
Скільки всього учнів у 2-А класі?

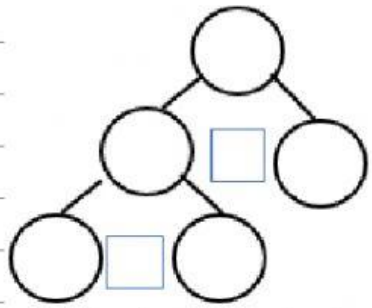

4. Розв'яжи задачу. Запиши розв'язання діями і відповідь.

Першого місяця року лише 6 днів були сонячними. На скільки більше було похмурих днів того місяця ?

Відповідь : на днів більше.