DINÁMICA CON ROZAMIENTO O FRICCIÓN

1.-Colocar la fuerza que corresponde en cada figura:

Fuerza: F

Fuerza de Fricción: Fr

Fuerza Normal: N

Peso: P

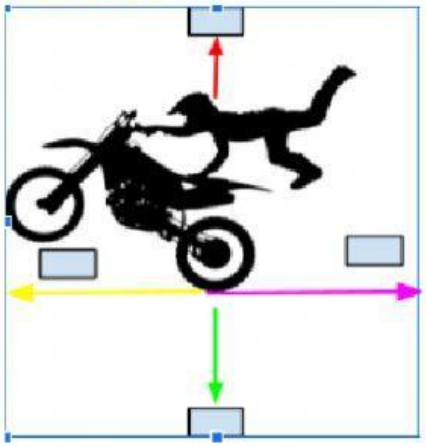

Fuerza: F

Fuerza de Fricción: Fr

Fuerza Normal: N

Peso: P

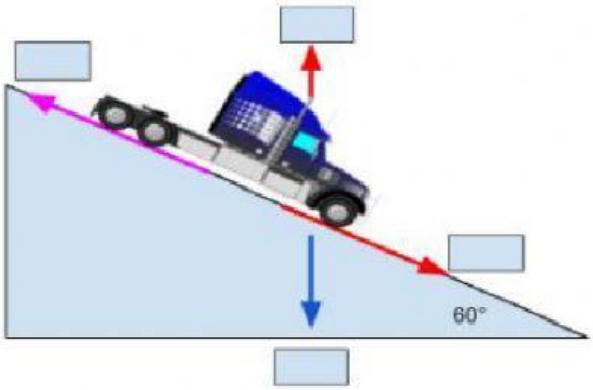

Fuerza: F

Fuerza de Fricción: Fr

Fuerza Normal: N

Peso: P

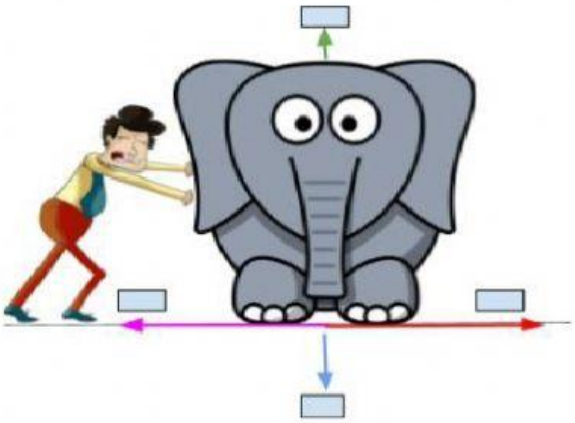

2.-Conecte con una línea la respuesta correcta

Coeficiente de Rozamiento Estática	μ_c
Coeficiente de Rozamiento Cinética	μ
Coeficiente de Fricción	μ_e

3.-Completar

a) El coeficiente de rozamiento……..siempre es mayor que el coeficiente de rozamiento……..

b) A que es igual el peso:.....

c) La fórmula de coeficiente cinético es:.....

- $\mu_e = \frac{fr_e}{N}$
- $\mu_e = fr_e \cdot N$
- $\mu_e = \frac{N}{fr_e}$