7. Compara y contrasta los gráficos y resuelve los ejercicios colocando >, < o = según corresponda.

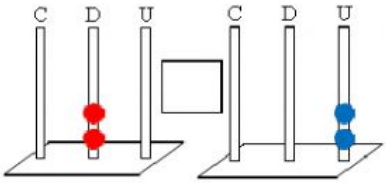

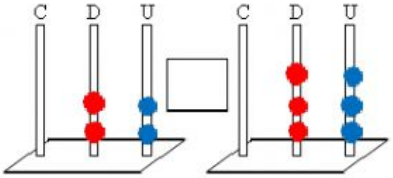

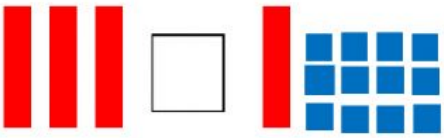

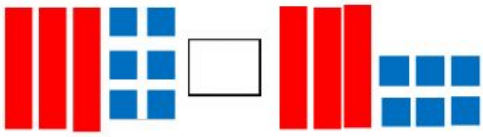

> < > =

8. Observa y contrasta las cantidades. Luego, resuelve las siguientes sucesiones numéricas y ubica los números utilizando la simbología > o < sobre la línea.

A. Forma creciente.

4D - 4 U 2D - 1D - 9U 3D - 3D 8U

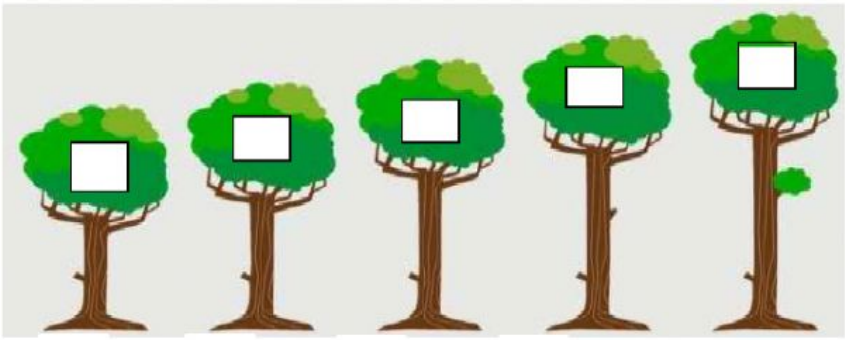

< < < <

B. Forma decreciente.

3D 9U - 2D - 1D 7U - 7 U 2D - 8U

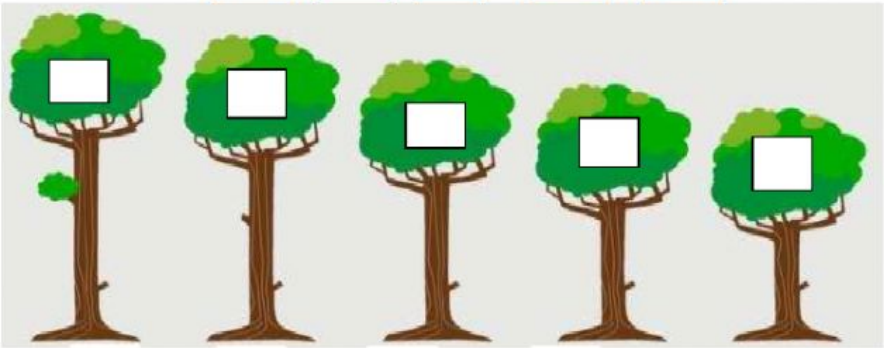

> > > >

[s.f]. Orden y secuencia y decimenta [Página Web] Recuperado de https://www.secuenciadeideas/blog/matematicas/secuencias-didacticas/ideas-que-sirven-y-para-que-sirven/ [Consulta: 11 de mayo de 2020]