27 העתיקו את התשובה הנכונה. זווית חדה היא...

א) תמיד גדולה מזווית קהה. ב) תמיד קטנה מזווית קהה. ג) לפעמים שווה לזווית קהה.

28 בשני האיורים שלפניכם, סמנו בקשת אדומה את הזוויות החדות ובשתי קשתות אדומות את הזוויות הקהות.

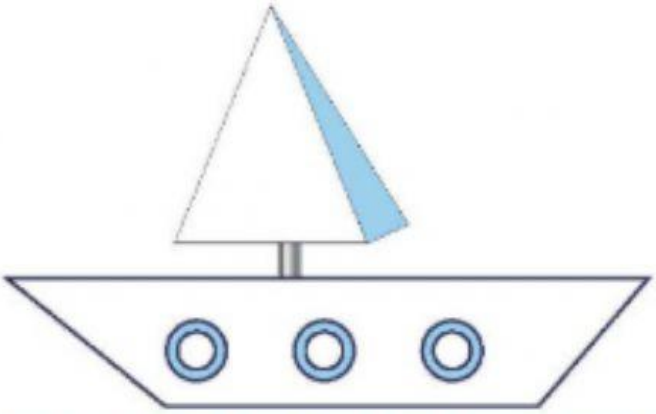

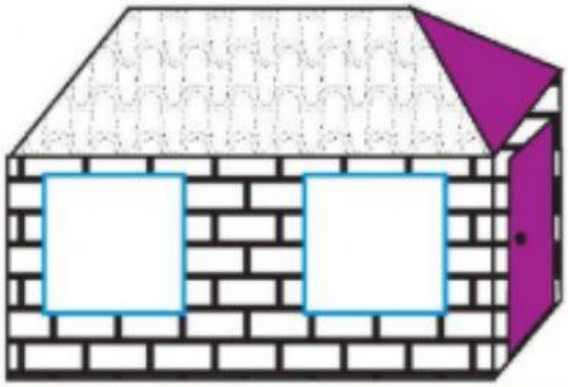

29 א) סמנו בסימון המקובל שתי זוויות ישרות בסרטוט.

ב) כמה זוויות שטוחות תוכלו למצוא בסרטוט זה? _____ ?

ג) כמה זוויות חדות בסרטוט? _____ ?

כתבו בתוך כל זווית חדה את האות ח.

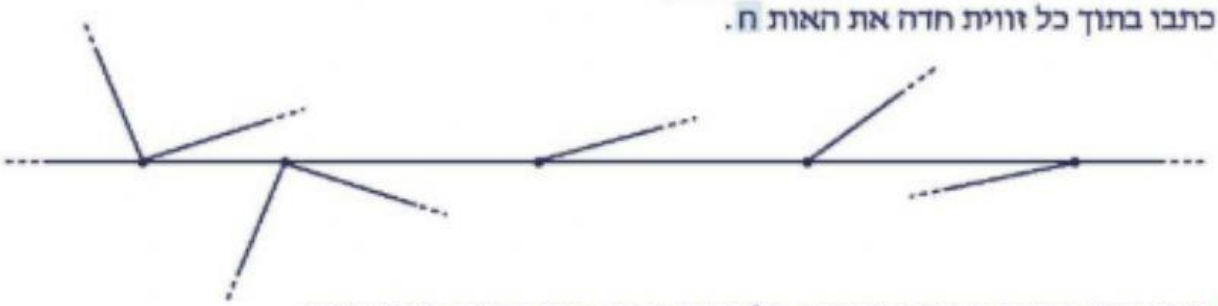

ד) סמנו שבע זוויות קהות בסרטוט. כל זווית קהה סמנו בקשת בצבע שונה.
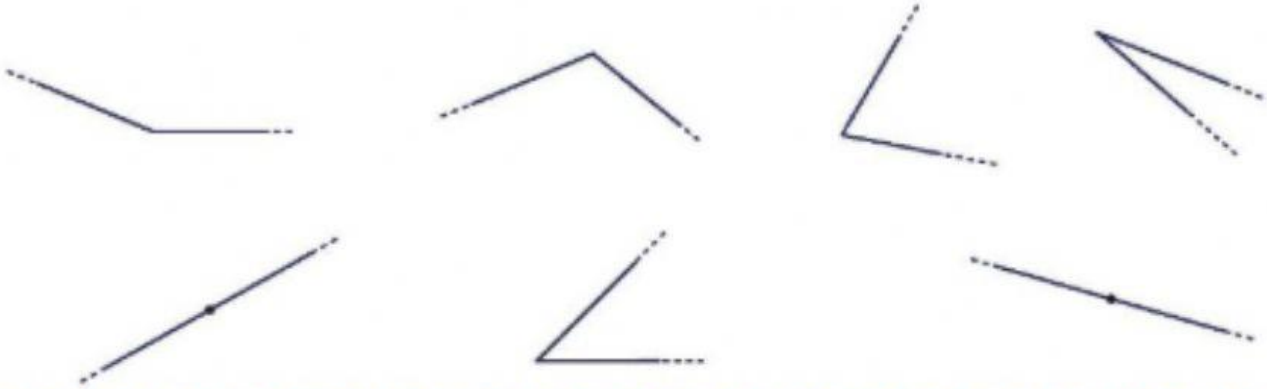
30 כתבו ליד כל זווית אם היא **חדה**, **ישרה**, **קהה** או **שטוחה**.