BLOCO 3 – 17 DE JUNHO

LÍNGUA PORTUGUESA

Leia com atenção os exercícios e marque apenas a resposta certa:

CIRCO

Venha sorrir comigo!
Vamos comemorar o
meu 1º Aninho.

PAULO

Dia: 13/10/10
Hora: 17:00hs
Local: Minha casa.

1- Este texto é um:

☐ BILHETE ☐ ANÚNCIO ☐ CONVITE

2- O assunto principal deste texto é:

☐ Festa de casamento.

☐ Festa de aniversário.

☐ Festa de batizado.

☐ Festa de 15 anos.

3- O tema desta festa é de:

☐ MICKEY ☐ CIRCO ☐ TURMA DA MÔNICA

4- A festa vai acontecer:

☐ A noite ☐ durante o dia ☐ a tarde

5- O convite é para comemorar o 1º aninho de Paulo ou seja:

☐ 1 ano de crescimento ☐ 1 ano de nascimento

☐ 1 ano de alimento ☐ 1 ano de escola

6-Em um convite não pode faltar, EXCETO:

☐ DIA ☐ HORA ☐ LOCAL ☐ PRESENTE

Questão -7- Leia o texto e responda as questões A e B.

A) O assunto do texto é:

A. ( ) festa de casamento
B. ( )festa de formatura
C. ( )festa das mães
D. ( )festa de aniversário

B) Esse texto serve para:

A. ( ) Convidar para uma festa
B. ( )Alertar sobre os perigos da floresta
C. ( )Ensinar a fazer uma festa
D. ( ) Contar uma história

Questão – 8- Leia o texto

Papai,

Vou à casa de Paulo.
Ele me convidou para ver o cachorrinho que ganhou.
Volto rapidinho.

Beijos, Beto

A palavra ele se refere a:

A. ( ) Beto
B. ( )papai
C. ( )Paulo
D. ( )cachorrinho

Questão – 9- Observe a imagem ao lado.
Na imagem, PRRRÍÍÍÍÍÍ, representa o barulho de um:

A. ( ) Telefone
B. ( )Apito
C. ( )Sino
D. ( )Tambor

Questão -10- Risque o quadrinho que tem o número de sílabas do desenho abaixo:

(A) ☐ 1 SÍLABA

(B) ☐ 2 SÍLABAS

(C) ☐ 3 SÍLABAS

(D) ☐ 4 SÍLABAS

Assinale corretamente os coletivos de cada substantivo:

1- Coletivo de peixes:
(A) boiada
(B) cardume
(C) nuvem
(D) esquadra

2- Coletivo de abelhas:
(A) enxame
(B) acervo
(C) manada
(D) nuvem

3- Coletivo de boi:
(A) vara
(B) boiada
(C) enxame
(D) cardume

4- Coletivo de estrela:
(A) multidão
(B) enxame
(C) cardume
(D) constelação

5- Coletivo de inseto:
(A) nuvem
(B) frota
(C) enxame
(D) constelação

6- Coletivo de navio:
(A) cardume
(B) esquadra
(C) multidão
(D) frota

7- Coletivo de pessoas:
(A) boiada
(B) multidão
(C) cardume
(D) esquadra

8- Coletivo de ônibus:
(A) constelação
(B) frota
(C) nuvem
(D) boiada

MATEMÁTICA

1. Dos valores representados nos ábacos o maior valor é

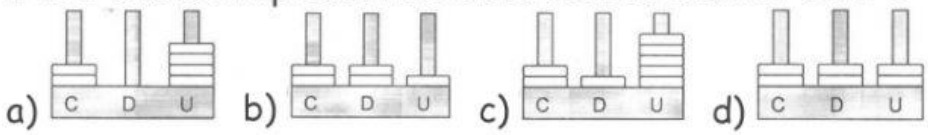

---

2. Dos valores representados no material dourado o quadro que apresenta maior resultado é

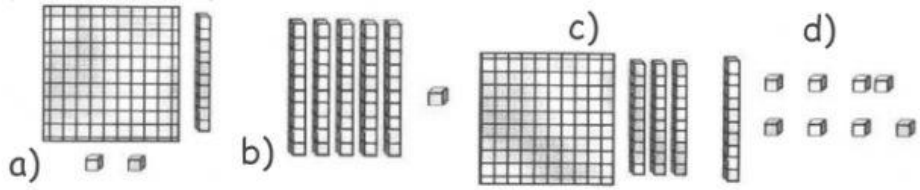

---

3. O menor valor representado no ábaco é

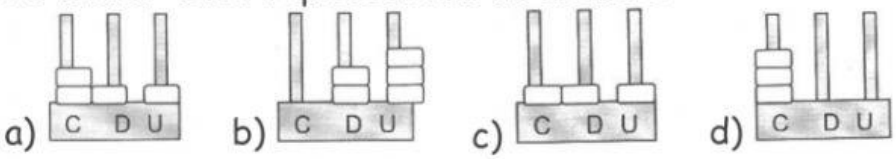

---

4. O resultado da subtração é

a) 143 b)133

c) 33 d) 233

C	D	U
2	7	8
- 1	4	5

---

5. O valor que representa o resultado da adição é

a) 386

b) 376

c) 286

d) 276

C	D	U
1	4	9
+ 1	3	7

Observe o bilhete:

25/04/2006

Mamãe, a vovó avisou que chegará amanhã às 18:00 horas no ônibus 234.

Juliana

6. A opção que representa a data em que bilhete foi escrito é

a) dezoito horas b) duzentos e trinta e quatro

c) vinte e cinco de abril de dois mil e seis d) dois mil e seis

---

7. O horário que a vovó irá chegar é

a) 18:00 b) 234

c) 25-04-2006 d) 8:00

---

8. O dia da chegada da vovó será

a) dia 18 b) dia 25

c) dia 26 d) dia 24

---

9. Observe a fila das crianças



O sucessor do menino de guarda-chuva é

a) o menino que dança b) o menino que vai pescar

c) o menino que joga bola d) a menina do balão

10) Uma florista tinha 520 rosas. Vendeu 2 centenas de rosas brancas e meia centena de rosas vermelhas. Quantas rosas ainda tem para vender?

(A) 370
(B) 257
(C) 270
(D) 220

O SISTEMA SOLAR

1- Responda as questões abaixo de acordo com o que já foi trabalhado nas aulas anteriores:

a) Nós vivemos no planeta:
(A) Marte
(B) Vênus
(C) Terra

b) Todos os planetas giram em torno:
(A) da Lua
(B) do Sol
(C) dos cometas

c) Quantos planetas possui o Sistema Solar?
(A) 8
(B) 9
(C) 7

d) Recentemente, qual destes astros deixou de ser considerado planeta?
(A) Netuno
(B) Júpiter
(C) Plutão

e) Qual o planeta mais próximo do Sol?
(A) Marte
(B) Mercúrio
(C) Terra

f) Quais os movimentos que a Terra realiza?
(A) rotação e mutaçãao
(B) translação e evolução
(C) rotação e translação

g) Quanto tempo leva o movimento de rotação?
(A) 18 horas
(B) 36 horas
(C) 24 horas

h) O movimento de rotação dá origem:
(A) aos dias e as noites
(B) a estação das chuvas
(C) as estações do ano

i) Quanto tempo leva o movimento de translação?
(A) 367 dias
(B) 365 dias
(C) 380 dias

j) O movimento de translação dá origem?
(A) aos dias e as noites
(B) a estação das chuvas
(C) as estações do ano