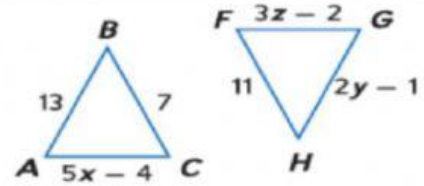
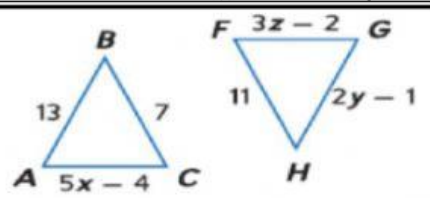
☺ أوجد قيمة x إذا كان $\Delta ABC \cong \Delta FGH$

a)	$x = 15$
b)	$x = 7$
c)	$x = 3$



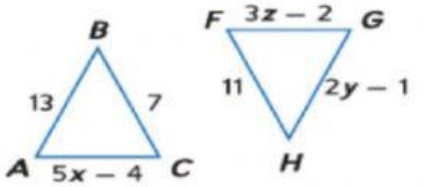
☺ أوجد قيمة y إذا كان $\Delta ABC \cong \Delta FGH$

a)	$y = 4$
b)	$y = 8$
c)	$y = 6$



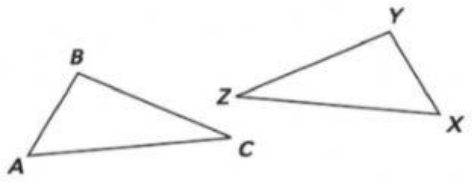
☺ أوجد قيمة z إذا كان $\Delta ABC \cong \Delta FGH$

a)	$z = 3$
b)	$z = 4$
c)	$z = 5$



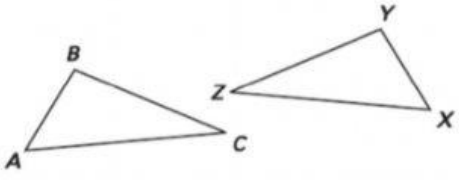
☺ في المثلثين التاليين $\angle Z \cong \angle C$ و $\overline{XZ} \cong \overline{AC}$ ، ما المعلومة الإضافية التي يمكن استخدامها لبرهنة أن $\Delta XYZ \cong \Delta ABC$ بالمسلمة SAS

a)	$\overline{BC} \cong \overline{YZ}$
b)	$\overline{AB} \cong \overline{XY}$
c)	$\overline{BC} \cong \overline{XZ}$



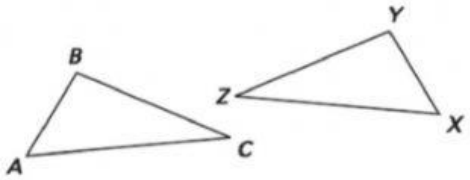
☺ في المثلثين التاليين $\angle Z \cong \angle C$ و $\overline{XZ} \cong \overline{AC}$ ، ما المعلومة الإضافية التي يمكن استخدامها لبرهنة أن $\Delta XYZ \cong \Delta ABC$ بالمسلمة AAS

a)	$\angle B \cong \angle Y$
b)	$\angle A \cong \angle X$
c)	$\angle X \cong \angle Y$



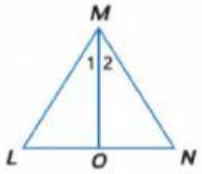
☺ في المثلثين التاليين $\angle C \cong \angle Z$ و $\overline{AC} \cong \overline{XZ}$ ، ما المعلومة الإضافية التي يمكن استخدامها لبرهنة أن $\Delta ABC \cong \Delta XYZ$ بالمسلمة ASA

a)	$\angle B \cong \angle Y$
b)	$\angle A \cong \angle X$
c)	$\angle X \cong \angle Y$



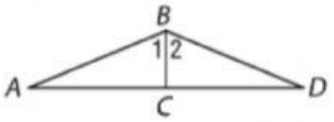
☺ في المثلثين التاليين $\overline{LO} \cong \overline{NO}$ و $\overline{LM} \cong \overline{NM}$ ، ما المعلومة الإضافية التي يمكن استخدامها لبرهنة أن $\Delta LOM \cong \Delta NOM$ بالمسلمة SSS

a)	$\angle 1 \cong \angle 2$
b)	$\overline{OM} \cong \overline{OM}$
c)	$\overline{NM} \cong \overline{NO}$



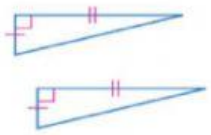
☺ في المثلثين التاليين $\angle 2 \cong \angle 1$ و $\overline{BC} \perp \overline{AD}$ ، ما المسلمة أو النظرية التي يمكن استخدامها لبرهنة أن $\Delta ABC \cong \Delta DBC$

a)	AAS
b)	SAS
c)	ASA

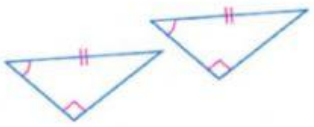


☺ أي مثلثين مما يلي متطابقين بالمسلمة ASA

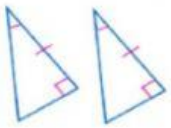
a.



b.

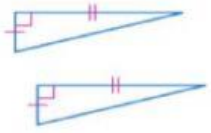


c.

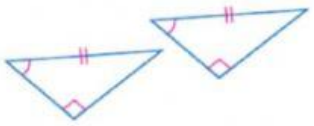


☺ أي مثلثين مما يلي متطابقين بالمسلمة SAS

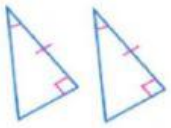
a.



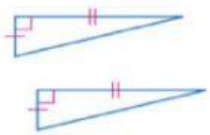
b.

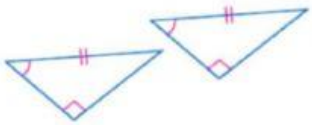


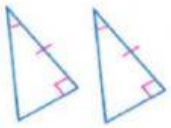
c.

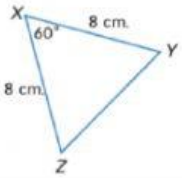


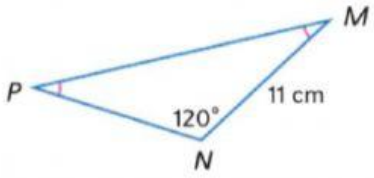
☺	أي مثلثين مما يلي متطابقين بالمسلمة AAS

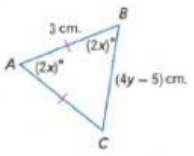
a. 

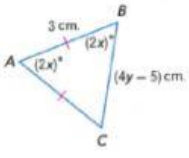
b. 

c. 

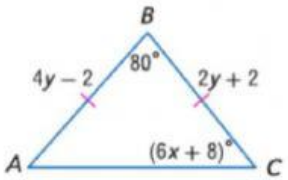
☺	أوجد قياس $\angle Y$ في المثلث التالي :	
a)	$m\angle Y = 60$	
b)	$m\angle Y = 120$	
c)	$m\angle Y = 8$	

☺	أوجد طول PN في المثلث التالي :	
a)	$PN = 120$	
b)	$PN = 30$	
c)	$PN = 11$	

☺	أوجد قيمة y في المثلث التالي :	
a)	$y = 8$	
b)	$y = 2$	
c)	$y = 0.5$	

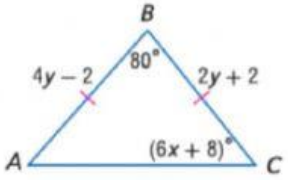
☺	أوجد قيمة x في المثلث التالي :	
a)	$x = 45$	
b)	$x = 60$	
c)	$x = 30$	

☺ أوجد قيمة y في المثلث التالي :



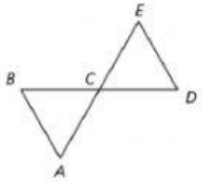
a)	$y = 1$
b)	$y = 2$
c)	$y = 4$

☺ أوجد قيمة x في المثلث التالي :



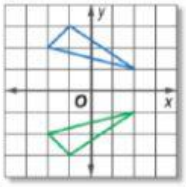
a)	$x = 7$
b)	$x = 12$
c)	$x = 10.5$

☺ $\overline{BD}$ و $\overline{AE}$ ينصف كلاً منهما الأخر عن النقطة C ما المعلومة الإضافية التي يمكن استخدامها لبرهنة أن $\Delta ACB \cong \Delta EDC$



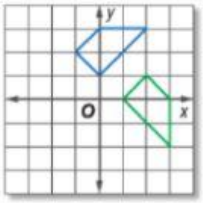
a)	$\angle B \cong \angle D$
b)	$\angle A \cong \angle E$
c)	$\angle ACB \cong \angle ECD$

☺ حدد نوع تحويل التطابق الظاهر :



a)	انعكاس
b)	إزاحة
c)	دوران

☺ حدد نوع تحويل التطابق الظاهر :



a)	انعكاس
b)	إزاحة
c)	دوران