POSA'T A PROVA

DESPRÉS DE REPASSAR EL QUE HEM TREBALLAT DURANT EL TRIMESTRE, LLEGEIX ATENTAMENT I RESPON

- Arrossega el sentit amb la imatge de l'òrgan al qual pertany:

vista gust

olfacte oïda tacte

- A quin aparell dels estudiats, en general, afecta més el Covid-19?

- Marca la casella d'allò que creguis que ens ajuden a tenir cura del nostre cos:

Fumar

Fer exercici diari

Beure molta aigua

Descansar bé

Renta-se les dents

Passejar pel camp

Beure Coca-cola a cada àpat

Menjar 5 fruites o verdures al dia

Sopar cada diumenge al McDonalds

Dutxar-se 1 cop a la setmana

- Arrossega el nom de cada part de l'ull al seu lloc corresponent:

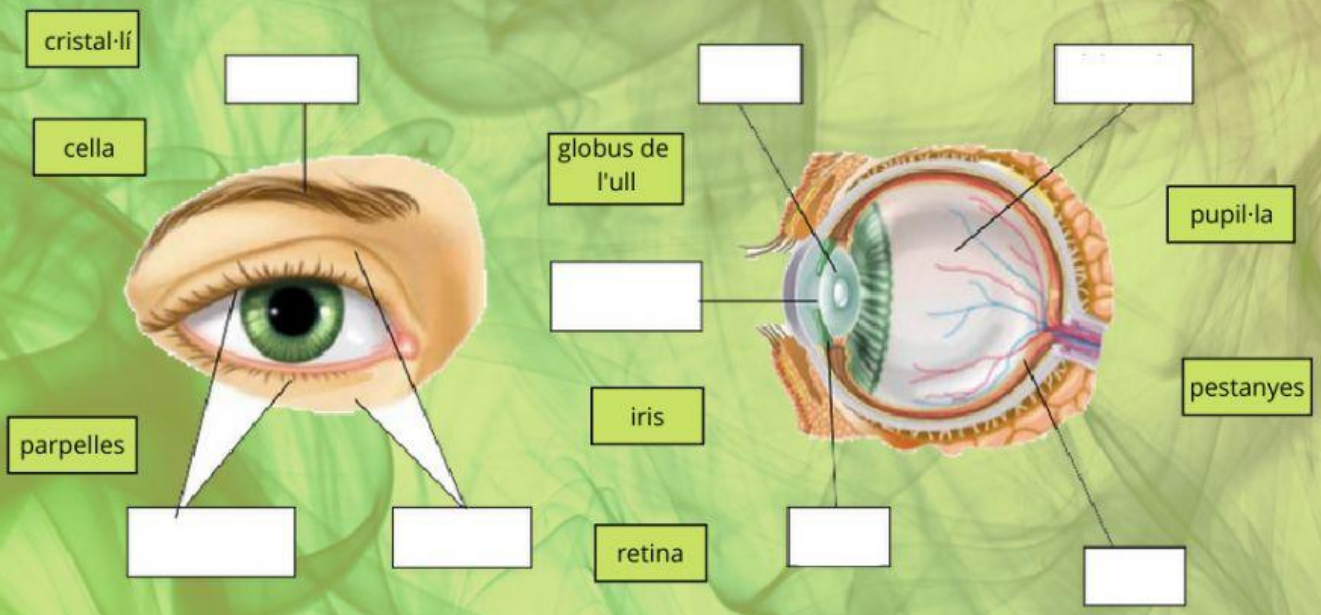

- Arrossega al seu lloc. A quina part de la llengua percebem els diferents sabors:

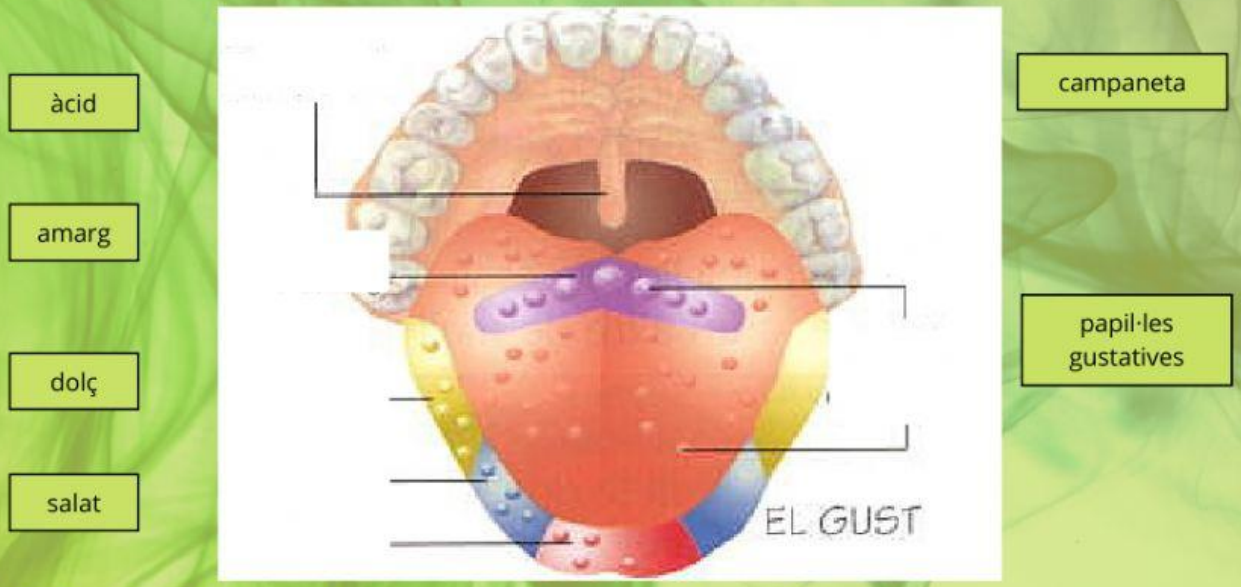

- Marca les frases que siguin certes:

La pell és l'òrgan de l'olfacte.

La pell es divideix en l'epidermis i la dermis.

La pell pot percebre: la duresa, la temperatura i la textura dels objectes.

- Arrossega i ordena els noms de les parts de l'òrgan de l'olfacte:

bulb olfactiu

nervi olfactiu

llengua

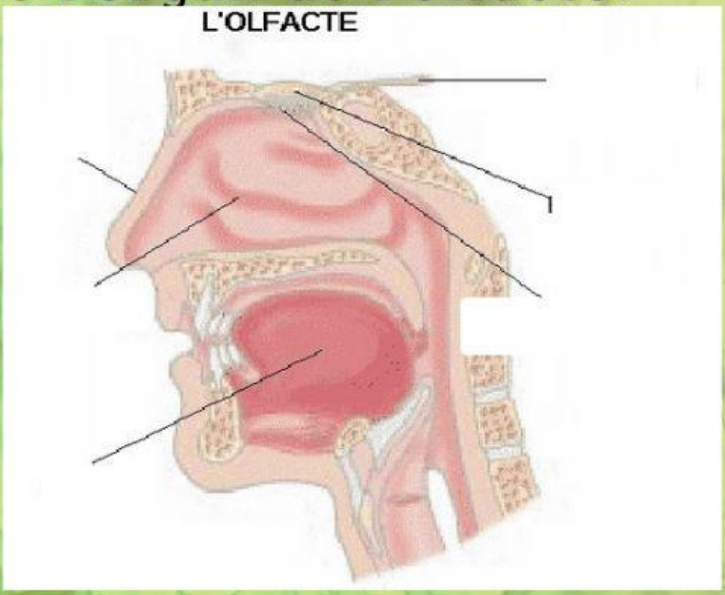

nas

fossa nasal

ramificacions nervioses

- Arrossega al seu lloc. A quina part de la llengua percebem els diferents sabors:

ossets

caragol

timpà

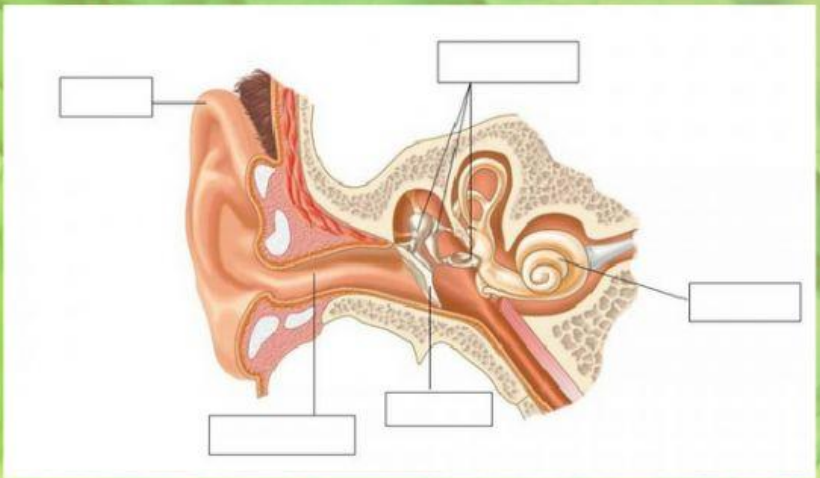

orella

conducte auditiu

- Completa:

Orelles sons oïda sorolls

El sentit de l'..... ens permet percebre ..... i .....

Els òrgans de l'oïda són les .....

- Marca les frases correctes:

- Quan respirem, intercanviem gasos entre el nostre cos i l'exterior.
-L'aparell respiratori és l'aparell encarregat de fer la respiració.
- L'aparell respiratori està format pels pulmons, els intestins, el fetge i la sang.
- Prenem oxigen de l'aire i eliminem diòxid de carboni.
- El diafragma és un os que es troba sota els pulmons.
- Els moviments que permeten la respiració són la inspiració i l'expiració.

- Arrossega al seu lloc:

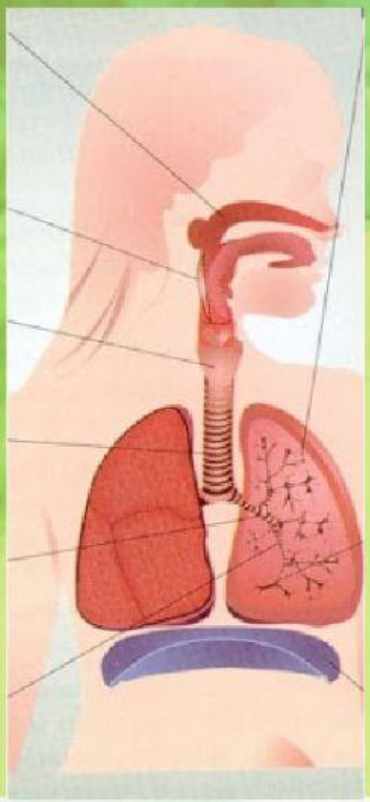

alvèols

bronquis

tràquea

faringe

bronquiols

laringe

diafragma

fosses nasals

- Arrossega i ordena:

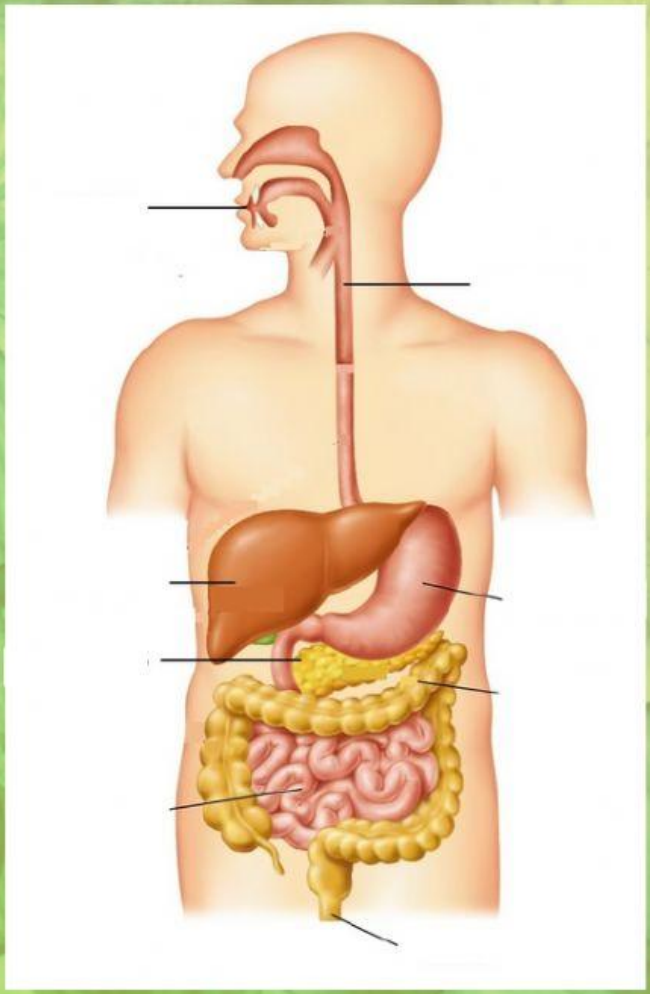

esòfag

estòmac

pancrees

boca

fetge

anus

intestí prim

intestí gros

- Completa:

aliments substàncies cos digestió

L'aparell digestiu té com a funció transformar els ..... en ..... nutritives simples perquè el nostre organisme pugui assimilar-les i transportar-les per tot el ..... Aquesta transformació s'anomena .....

- Completa:

plasma | cèl·lules sanguínies | plaquetes
glòbuls vermells | venes | capil·lars
glòbuls blancs | cor
vasos sanguinis | artèries

La sang circula pel cos a través dels ....., És impulsada pel .....
Els vasos sanguinis son de tres tipus: les ....., que porten la sang del cor cap a altres parts del cos, les ....., que porten la sang cap al cor, i els ....., que uneixen les artèries i les venes.
La sang està formada pel ..... i per les .....
Hi ha tres tipus de cèl·lules sanguínies: els ....., els ..... i les .....

magnet
UPC
Junts descobrim el futur