Име: ……

География и икономика VI клас

Изходно ниво

1. За кой от континентите се отнася следното твърдение: *„Разположен е от двете страни на Екватора, граничи с Тихия и Атлантическия океан“*?
   А) Северна Америка
   Б) Южна Америка
   В) Азия
   Г) Австралия

2. Посочете острови от Тихия океан.
   А) Хавайски
   Б) Малдивски
   В) Гренландия
   Г) Мадагаскар

3. За кой климатичен поя се отнася климатограмата?
   А) субекваториален
   Б) тропичен
   В) умерен
   Г) полярен

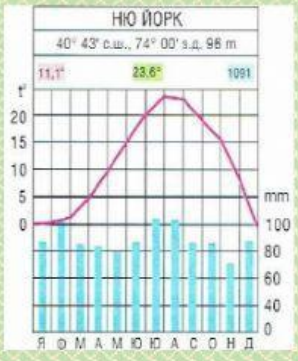

4. В кой от континентите се намира най-голямата тропична пустиня?
   А) Австралия
   Б) Азия
   В) Африка
   Г) Южна Америка

5. В кой континент се намира най-високият водопад на света?
   А) Австралия
   Б) Азия
   В) Африка
   Г) Южна Америка

6. Коя от териториите, отбелязани на картата, се отличава с голяма гъстота на населението
   А) А Б) Б В) В Г) Г

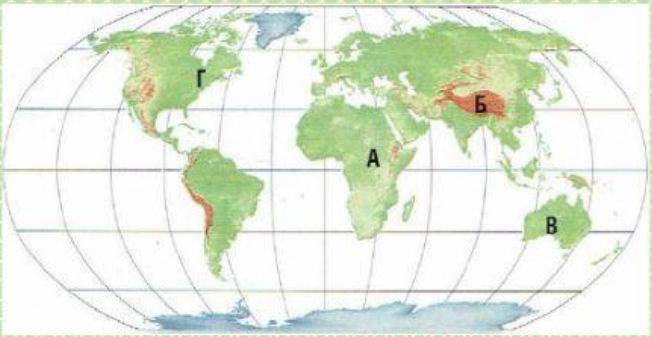

7. В коя от двойките планина – най-висок връх е допусната грешка?
   А) Анди – Аконкагуа
   Б) Кордилери – Мичъл
   В) Хималаи – Еверест
   Г) Голяма вододелна планина – Косцюшко

8. За коя двойка природна зона – континент са характерни хининово дърво и анаконда?
   А) савани – Северна Америка
   Б) екваториални гори – Южна Америка
   В) степи – Азия
   Г) пустини – Австралия

9. За реките на коя част от Азия е характерна хидрограмата?

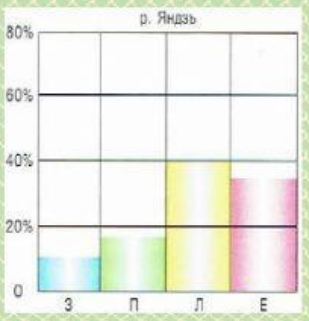

   ……

10. Разпознайте видовете животни на снимките и ги запишете заедно с континентите, които обитават:

…… ……

…… ……

11. Определете за кой океан се отнася краткото описание: „*Това е вторият по големина океан, простира се от Арктика до Антарктида. Той е най-добре изучен и под водите му се простира най-дългата планинска верига на Земята*“?
……

12. Кой от народите на Азия е представител на европеидната раса?
А) китайци
Б) араби
В) монголци
Г) японци

13. За коя от страните се отнася следната характеристика: „*Страна с най-голям брой на населението в света, има широк излаз на Тихия океан. Стопанството на страната е много добре развито на основата на разнообразните местни природни ресурси.*“?
……

14. Открийте грешката в двойките страна – столица.
А) Нова Зеландия – Уелингтън
Б) Австралийски съюз – Канбера
В) Япония – Токио
Г) Република Корея – Пекин

15. На територията на коя страна се намира показаното изображение?
А) Нова Зеландия
Б) Китай
В) Бразилия
Г) Канада

16. Верни ли са твърденията за населението на Южна Америка?
1. *По-голямата част от населението на континента говори на испански.*
2. *Средната гъстота на населението е по-високо отколкото на другите континенти.*

А) вярно е само първото
Б) вярно е само второто
В) и двете са върни
Г) и двете не са верни

17. Определете по картата три страни с най-голяма гъстота на населението.

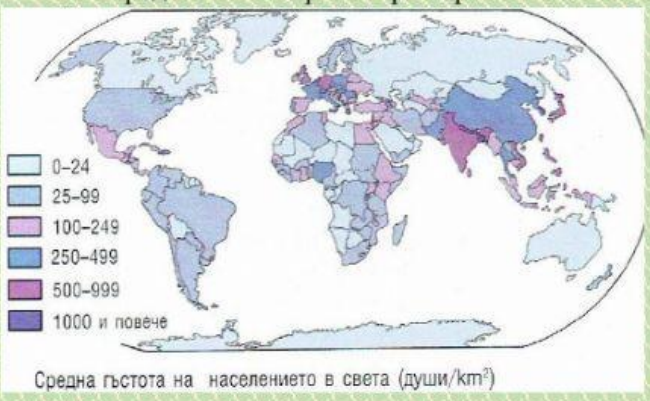

Средна гъстота на населението в света (души/km²)

1……..
2……..
3……..

18. За кой от континентите се отнася характеристиката: *„най-малкият и слабо заселен континент“*?

А) Азия
Б) Южна Америка
В) Северна Америка
Г) Австралия

19. Смесеното население между европеидна и монголоидна раса се нарича:

А) мулати
Б) метиси
В) маори
Г) папуаси

20. Кои са характерните стопански култури за Югоизточна Азия?

А) чай, ориз, памук
Б) какао, картофи, ябълки
В) пшеница, фурми, цитруси
Г) царевица, коноп, юта

21. Коя от групите включва най-добре развитите страни от изучените континенти?

А) Египет, Аржентина, Индия, Канада
Б) Япония, САЩ, Австралийски съюз, Бразилия
В) Турция, Бразилия, Канада, Австралийски съюз
Г) Австралийски съюз, Бразилия, Нова Зеландия, Република Корея

22. Кой от островите е разположен в Индийския океан?

А) Гренландия
Б) Тасмания
В) Куба
Г) Шри Ланка

23. Разгледайте знамената на Австралийски съюз и Нова Зеландия. Кое е общото между тях? Обяснете защо.

……
……
……

24. Определете по картата кои обекти са отбелязани:

1……
2……
3……
4……
5……
6……
7……

8……

9……

10……