Οι αριθμοί ως το 70

Ποιος είναι ο αριθμός; Κάθε τρίγωνο μετράει για μια Δεκάδα και κάθε κύκλος για μια Μονάδα.

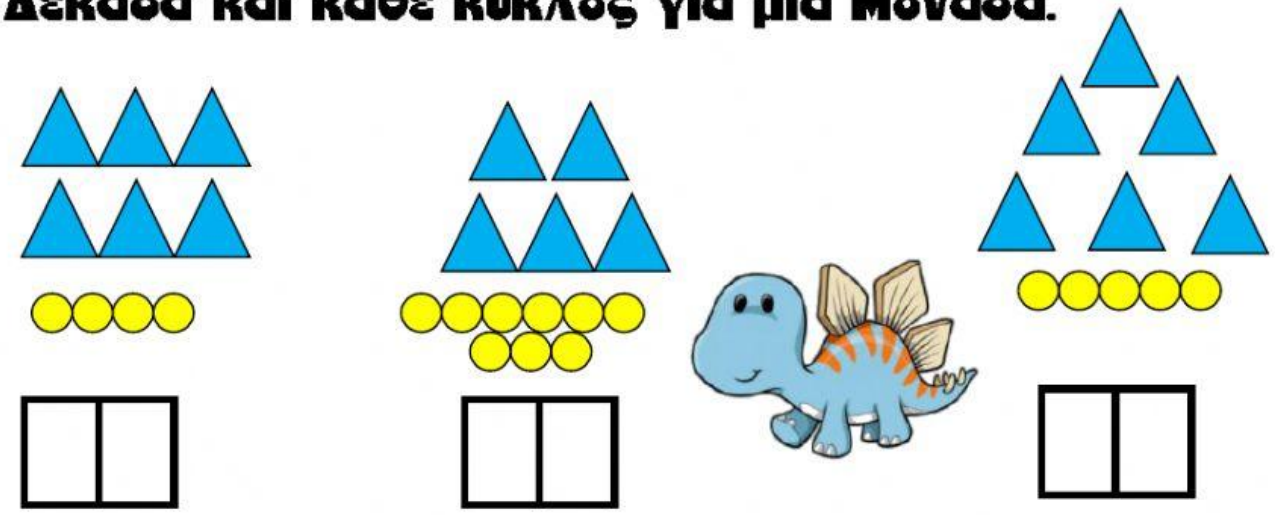

Σχημάτισε τους παραπάνω αριθμούς στους άβακες. Με κόκκινο τις Δεκάδες και πράσινο τις Μονάδες.

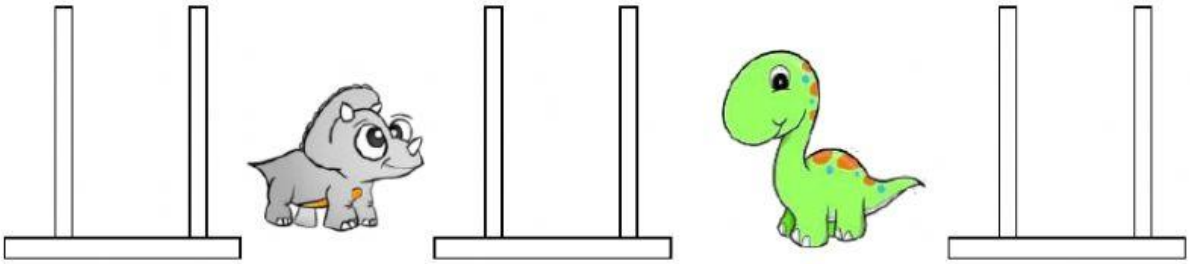

Βρες τον αριθμό πριν και μετά.