REPASO NÚMEROS DECIMALES 12

Escribe los decimales.

a)



8 décimas = ☐

b)

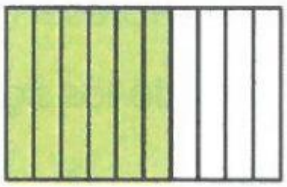

$\frac{6}{10}$ = ☐

c)

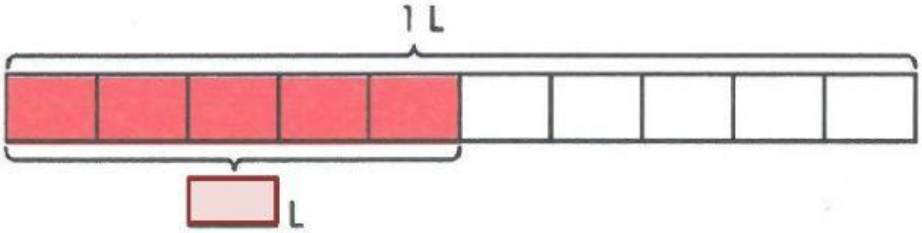

¿Cuál es, en litros, el volumen total de agua en los recipientes?

☐

Expresa cada fracción o número mixto en decimales.

a) $\frac{3}{10}$ ☐ b) $\frac{9}{10}$ ☐ c) $1\frac{7}{10}$ ☐ d) $3\frac{2}{10}$ ☐

Expresa los decimales como fracción o número mixto en su forma más simple.

a) 0,3 ↓ ☐

b) 0,5 ↓ ☐

c) 1,4 ↓ ☐

d) 3,6 ↓ ☐