ÁREA DE FIGURAS PLANAS

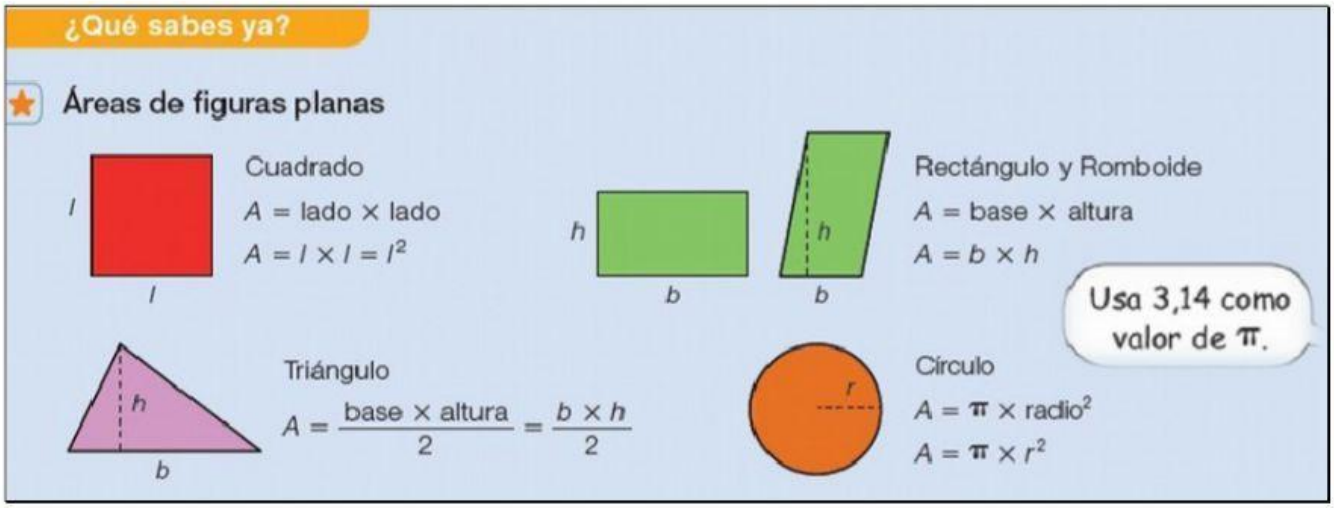

1. **HALLA EL ÁREA DE CADA FIGURA PLANA.**

- **Un cuadrado de lado (l) 4cm**

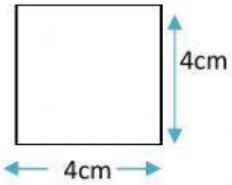

-Operaciones:

-Resultado: _____cm².

- **Un rectángulo y un romboide de base (b) 5cm y altura (h) 3cm.**
-

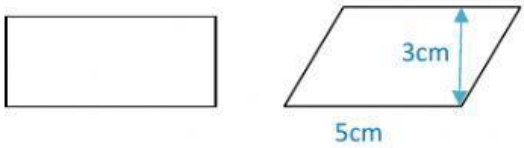

-Operaciones:

-Resultado: _____cm².

- **Un triangulo de base (b) 12cm y altura (h) 6cm.**

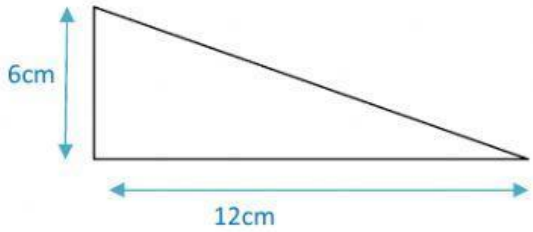

-Operaciones:

-Resultado: _____cm².

- **Un círculo de radio (r) 10cm.**

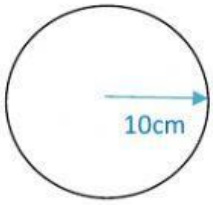

-Operaciones:

-Resultado: _____cm².

2. CALCULA EL ÁREA DE CADA FIGURA.

Un rectángulo de 5 cm de largo y 2 cm de ancho.

-Operaciones:

Resultado:_____cm².

Un cuadrado de 4 m de lado.

-Operaciones:

Resultado:_____m².

Un cartel rectangular de 2 m de largo y 1,5 m de ancho.

-Operaciones:

Resultado:_____m².

Un cristal cuadrado de 30 cm de lado.

-Operaciones:

Resultado:_____cm².

3. CALCULA EL ÁREA DE LOS SIGUIENTES TRIAGNDULOS

Operaciones:

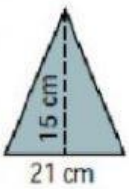

A = cm²

Operaciones:

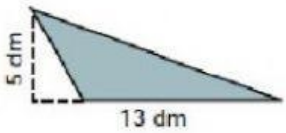

A = dm²