الجبرُ أوْجِدْ طولَ الضِّلعِ المَجهولِ لِكُلِّ شَكْلٍ.
مُحيطُ كُلِّ شَكْلٍ هُوَ 50 cm.

7.



المَجهولُ هُوَ _____ سنتيمتراتٍ.

8.

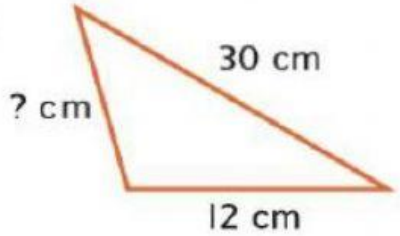

المَجهولُ هُوَ _____ سنتيمتراتٍ.

9.

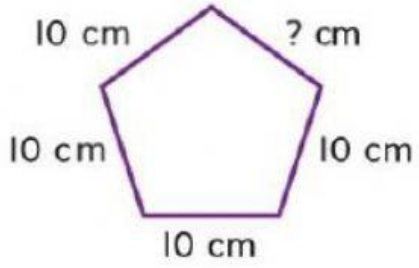

المَجهولُ هُوَ _____ سنتيمتراتٍ.

10.

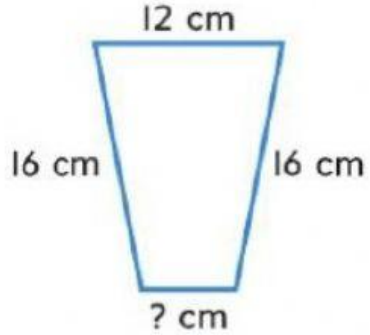

المَجهولُ هُوَ _____ سنتيمتراتٍ.