NOM I COGNOM:

DATA:

Els polígons

Un **polígon** és una figura plana limitada per una línia poligonal tancada. Els **costats** i els **vèrtexs** són elements d'un polígon.

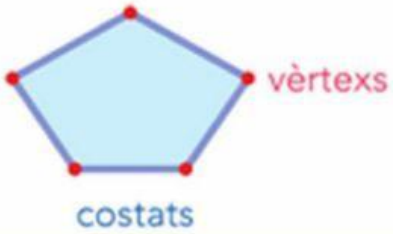

El nombre de costats és igual que el de vèrtexs.

1 Quines d'aquestes figures són polígons?

2 Quants costats tenen aquests polígons? Escriu-ho i aprèn-ho.

TRIANGLE	QUADRILÀTER	PENTÀGON	HEXÀGON
☐ costats	☐ costats	☐ costats	☐ costats

3 Observa i completa l'oració.



Els quadrats i els rectangles

són _____ perquè

tenen ☐ costats.

Com es diuen aquests polígons?



Hexàgon | Quadrilàter | Pentàgon

Triangle | Quadrilàter | Pentàgon



Hexàgon | Pentàgon | Triangle

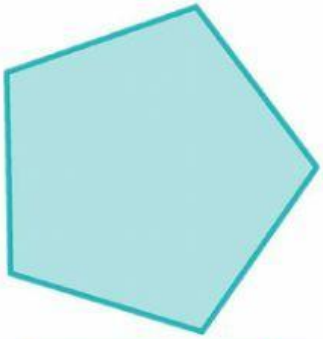

Quadrilàter | Pentàgon | Hexàgon

Quina forma tenen aquests objectes? Escriu-ho.