ỚP 3 - CTST

PHIẾU ÔN TẬP CUỐI TUẦN 27

MỤC TIÊU

- ✓ Ôn tập nhân với số có một chữ số
- ✓ Chia cho số có một chữ số trong phạm vi 100 000

PHẦN 1: TRẮC NGHIỆM

Bài 1. Tích của số lớn nhất có 4 chữ số và số nhỏ nhất có 1 chữ số là:

A. 9999 B. 9 C. 1111 D. 0

Bài 2. Kết quả phép tính 8676 : 4 là:

A. 2166 B. 2168 C. 2196 D. 2169

Bài 3. Một mảnh giấy hình chữ nhật có chiều dài 15 cm, chiều rộng 8 cm. Tính chu vi mảnh giấy đó.

A. 38 cm B. 40 cm C. 43 cm D. 46 cm

Bài 4. Một tuần lễ có 7 ngày. Vậy 938 ngày bằng bao nhiêu tuần lễ?

A. 124 B. 134

C. 144 D. 154

Bài 5. Một giờ gấp 6 phút số lần là:

A. 20 lần B. 15 lần C. 10 lần D. 12 lần

PHẦN 2: TỰ LUẬN

Bài 1: Đặt tính rồi tính:

2162 × 4 37361 × 2 8590 : 5 94 284 : 3

LIVEWORKSHEETS

Bài 2: Điền dấu >, <, = vào chỗ trống thích hợp:

4153 ☐ 8356 : 2 6253 - 4516 ☐ 6948 : 4

2745 × 2 ☐ 5480 1300 x 3 ☐ 9560 : 5

Bài 3: Đúng ghi Đ, sai ghi S:

```
5146 | 2
11   | 2578
 14  |
  16 |
   0
```

```
2470 | 5
 47  | 494
  20 |
   0
```

```
62 788 | 2
02     | 31 394
 0 7   |
   18  |
    08 |
     0
```

```
58 905 | 5
08     | 11 781
 3 9   |
   40  |
    05 |
     0
```

Bài 4: Tìm X, biết:

a) (X + 237) x 5 = 12895

b) 15768 : X = 5 (dư 3)

Bài 5: Một số chia cho 4 rồi lấy kết quả trừ đi 2018 thì bằng 56. Tìm số đó.

Bài giải

Bài 6: Một cửa hàng có 2760kg gạo. Buổi sáng bán được $\frac{1}{3}$ số gạo đó, buổi chiều bán được ít hơn buổi sáng 170kg. Hỏi sau một ngày cửa hàng bán được bao nhiêu ki-lô-gam gạo?

LIVEWORKSHEETS

Bài giải

Bài 7: Trong chuyến đi dã ngoại, Minh được tham quan một trang trại chăn nuôi và thấy trang trại có 7254 con gà. Số vịt bằng $\frac{1}{3}$ số gà. Hỏi số gà nhiều hơn số vịt bao nhiêu con?

Bài giải

Bài 8: Hình chữ nhật có chiều rộng bằng 25 cm, chiều dài gấp 4 lần chiều rộng. Tính chu vi của hình chữ nhật đó.

Bài giải

LIVEWORKSHEETS

Bài 9: Có 1950 quyển sách xếp đều vào 6 ngăn. Hỏi 9 ngăn như thế có bao nhiêu quyển sách?

Bài giải

Bài 10: Số?

```
85ab | 6
25   | 1c21
 12  |
  06 |
   0 |
```




```
6mn6 | 3
05   | 2p8q
 24  |
  06 |
   0 |
```




```
  4d1e
×
     2
 g6h8
```

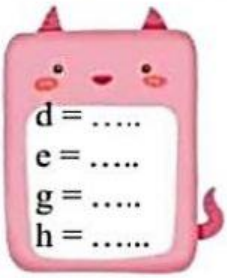


```
  5x8y
×
     3
 1z146
```



LIVEWORKSHEETS

Tuần 27

Ôn tập giữa học kì 2

MỤC TIÊU:

• Rèn kĩ năng đọc – hiểu	• LT về so sánh
• Ôn tập câu hỏi Làm gì? Khi nào? Ở đâu?	• Viết đoạn văn về nhân vật em yêu thích trong câu chuyện (bộ phim)

Du lịch thế giới

Chặng 1: Khám phá châu Á

Đọc thầm câu chuyện sau:

Chiếc lá non

Trên cành cây cao có một chiếc lá non bướng bỉnh đòi bay. Trời nổi dông bão ào ào, mặc cho anh chị níu kéo, nó quyết định thoát ra. Phụt, nó bị một cơn gió mạnh bứt lìa cành. Nó reo vui khi thấy mình bồng bềnh giữa không trung. Nhưng ngay lúc nó đang lâng lâng sung sướng, thì những hạt mưa ném tới tấp vào nó, khiến nó quay cuồng rồi rơi xuống dòng nước lũ. Một lát sau, nó bị rách tơi tả, vật vờ dạt vào bờ suối đầy bùn lầy. Nó bật khóc nức nở. Nó chỉ muốn quay về với các anh chị ở trên cành cây cao nhưng không thể được nữa rồi.

Theo Internet

Dựa vào bài đọc thầm trả lời câu hỏi bằng cách khoanh tròn vào chữ cái trước ý trả lời đúng hoặc thực hiện theo yêu cầu:

1. Chiếc lá non muốn điều gì?

A. Đi chơi trong trời dông bão.
B. Bay khỏi cành.
C. Xuống bơi dưới dòng nước.
D. Muốn mình mãi mãi xanh tươi

2. Sau khi bị bứt lìa cành, rơi xuống dòng nước, chiếc lá non như thế nào?

A. Nó bồng bềnh, bồng bềnh giữa không trung, bay mãi, bay mãi đến phương trời.
B. Lạnh buốt và tiếp tục trôi theo dòng nước lũ.
C. Rách tơi tả, vật vờ dạt vào bờ suối đầy bùn lầy.
D. Cuốn theo chiều gió, bay đến một nơi xa.

LIVEWORKSHEETS

3. Cuối cùng, chiếc lá non mong muốn điều gì?

A. Nó muốn quay về với các anh chị ở trên cành cây cao nhưng không thể được nữa.

B. Nó muốn trôi theo dòng nước để được cuốn đi.

C. Nó muốn tiếp tục được bồng bềnh giữa không trung.

D. Nó muốn gió thổi thật mạnh để nó có thể thoát ra khỏi bùn lầy.

4. Nếu có một phép màu giúp chiếc lá trở lại cành cùng anh chị ở trên cành cây thì chiếc lá sẽ nói gì với anh chị của mình? Thay lời chiếc lá em hãy viết lời chiếc lá muốn nói với anh chị của nó.

Chặng 2: Khám phá châu Âu

Chọn từ trong ngoặc đơn điền vào chỗ chấm để câu văn có hình ảnh so sánh.

a. Sương sớm long lanh như ..... (những hạt ngọc, làn mưa, hạt cát)

b. Nước cam vàng như ..... (mật ong,lòng đỏ trứng gà, bông lúa chín)

c. Hoa xoan nở từng chùm như..... (những chùm sao, chùm nhãn, chùm vải)

Chặng 3: Khám phá châu Mĩ

Đặt câu hỏi cho bộ phận được gạch trân trong mỗi câu sau:

a) Mùa nắng, đất nẻ chân chim, nền nhà cũng rạn nứt.

b) Các em nhỏ chơi đá bóng ở bãi cỏ sau đình.

c) Con phải đến bác thợ rèn để xem lại bộ móng.

LIVEWORKSHEETS