ASESMEN INDIVIDU

1. Perhatikan data nilai ulangan Matematika dari 20 siswa kelas 7 berikut.

80	85	75	65	70	75	75	80	70	85
75	75	65	70	80	75	85	70	75	80

Jika nilai - nilai tersebut disajikan dalam bentuk diagram batang, maka diagram batang yang benar adalah ...

A.

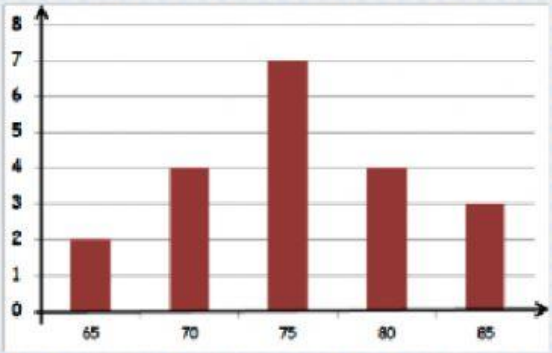

B.

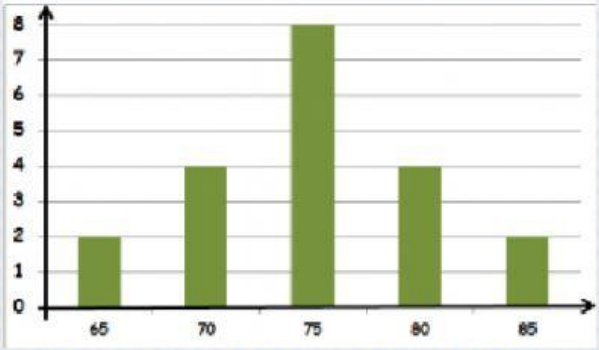

C.

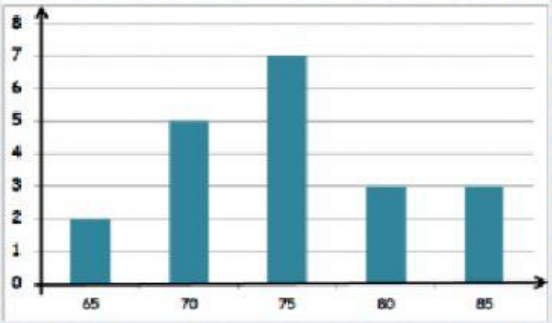

D.

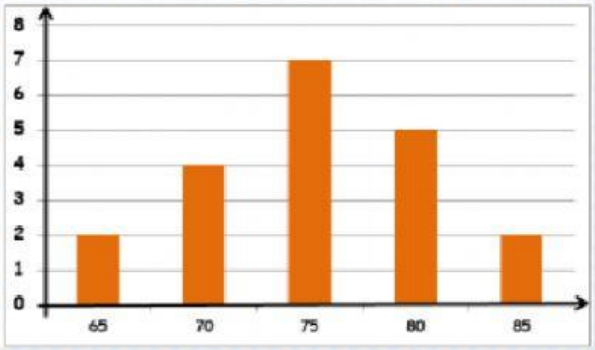

LIVEWORKSHEETS

ASESMEN INDIVIDU

2. Urutkan langkah-langkah menyajikan data dalam bentuk diagram lingkaran berikut ini, dengan cara mengghubungkan garis.

Hitung besar persentase masing-masing juring/sektor lingkaran.	LANGKAH PERTAMA
Buatlah lingkaran lalu bagi menjadi beberapa juring/sektor lingkaran yang mewakili masing-masing nilai kategori data.	LANGKAH KEDUA
Hitung nilai total/keselurahan data dengan cara menjumlahkan semua nilai/frekuensi data.	LANGKAH KETIGA
Hitung besar sudut masing-masing juring/sektor lingkaran.	LANGKAH KEEMPAT

LIVEWORKSHEETS