ĐỀ ÔN THI GIỮA HỌC KÌ II BỘ CTST

Đề số 2

I. TRẮC NGHIỆM *(3 điểm)*

Câu 1. Số lớn nhất trong các số 8910, 8091, 8190, 8019 là:

A. 8910 B. 8091 C. 8190 D. 8019

Câu 2. Điền số thích hợp vào ô trống

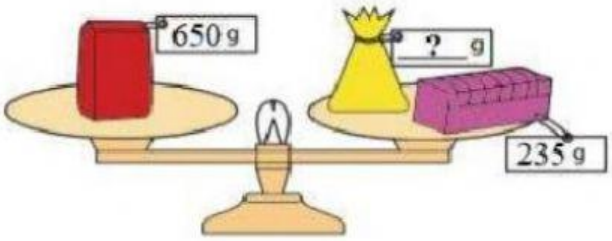

Số thích hợp điền vào dấu ? là:

A. 650 g B. 235 g C. 885 g D. 415 g

Câu 3. Hình dưới đây có mấy hình tam giác?

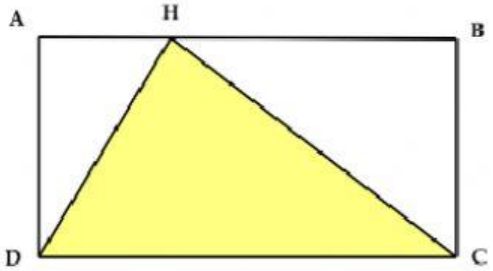

A. 1 B. 2 C. 3 D. 4

Câu 4. Một cuộn vải dài 84m, đã bán $\frac{1}{3}$ cuộn vải. Hỏi cuộn vải còn lại bao nhiêu mét?

A. 28m B. 60m C. 24m D. 56m

Bài 5. *(1 điểm)* Hình bên có bao nhiêu hình chữ nhật?



A. 1 B. 2 C. 3 D. 4

Câu 6. Bể thứ nhất chứa được 4 827 lít nước. Bể thứ hai chứa được 2 634 lít nước. Cả hai bể chứa là:

A. 8461 B. 9361 C. 8961 D. 7461

LIVEWORKSHEETS

II. TỰ LUẬN *(7 điểm)*

Bài 1. *(1 điểm)* Đặt tính rồi tính

a) 12908 + 31086 b) 16801 – 11083 c) 2765 x 5 d) 4210 x 4

Bài 2. *(1 điểm)* Tìm X biết:

a) X : 7 = 5 (dư 2) b) X x 8 + 25 = 81

Bài 3. *(1 điểm)* Điền dấu >, < hoặc = vào ô trống:

a) 2543 ☐ 2549 b) 100000 ☐ 99999

c) 43000 ☐ 42000 + 1000 d) 72100 ☐ 72099 + 1

Bài 4. *(2 điểm)* Một khu đất hình chữ nhật có chiều dài là 234m, chiều rộng bằng $\frac{1}{3}$ chiều dài. Tính chu vi khu đất đó.

Bài 5. *(1 điểm)* Hình bên có:

- …. hình tam giác.
- …. hình tứ giác.

Bài 6. *(1 điểm)* Tìm số có 2 chữ số đều là số chẵn. Biết hiệu 2 chữ số là 4 và thương của chúng là 2.

LIVEWORKSHEETS