PHIẾU ÔN TẬP BÀI 12.2: DUNG TÍCH

Bài 1: Phích nước của em chứa đầy bình là 500ml.

a. Em bị đổ một nửa ra ngoài. Vậy trong phích còn lại bao nhiêu mi li lít?

Trong phích còn lại: ……ml

b. Em đổ ra ngoài một phần năm của 500ml. Hỏi trong phích còn lại bao nhiêu?

Trong phích còn lại: …….

c. Em đổ ra ngoài ba phần năm của 500ml. Hỏi trong phích còn lại bao nhiêu?

Trong phích còn lại: …….

Bài 2: Số?

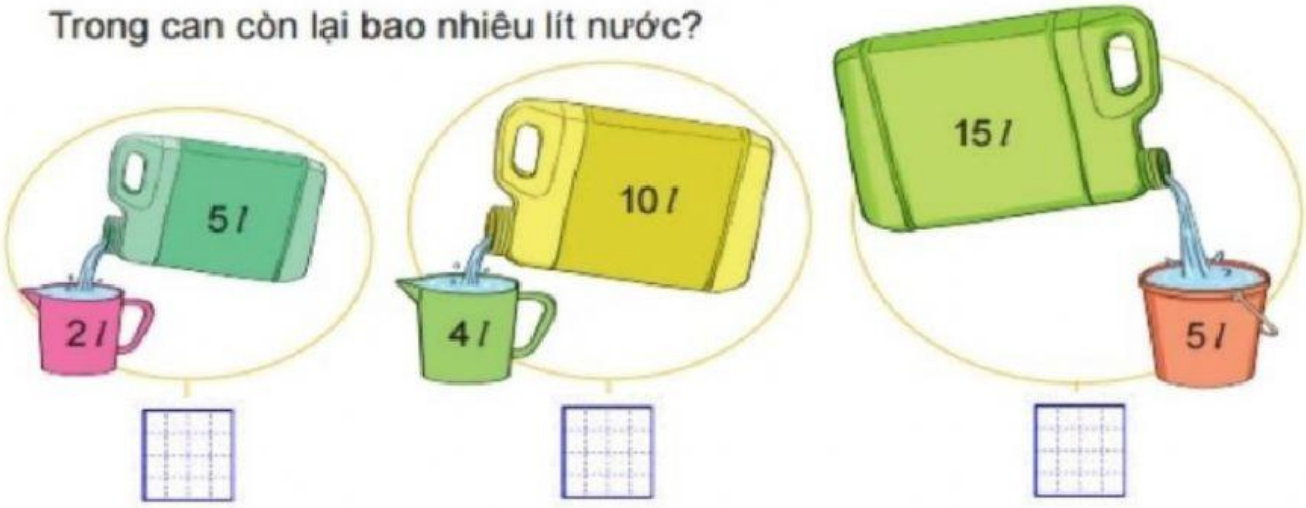

LIVEWORKSHEETS

Bài 3: Số?

a)

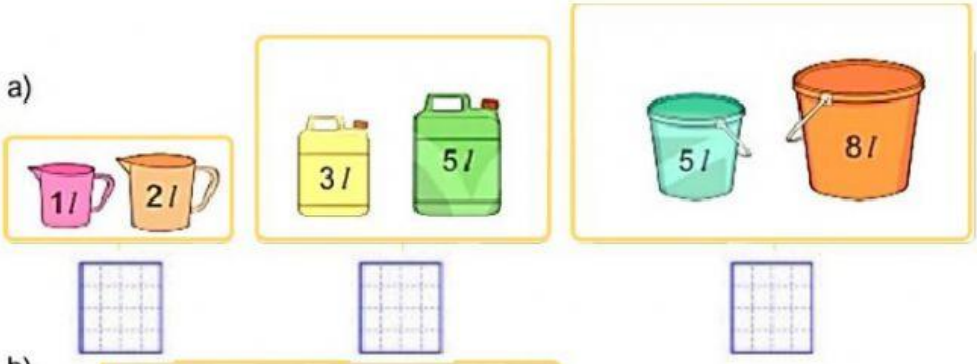

b)

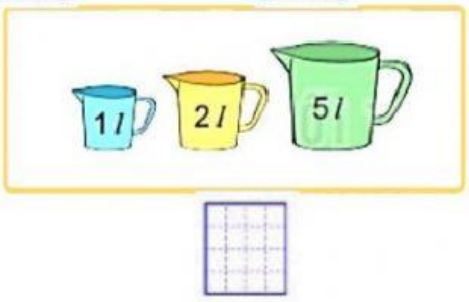

Bài 4. Trong can có 15 *l* nước mắm, mẹ đã rót 7 *l* nước mắm vào chai. Hỏi trong can còn lại bao nhiêu lít nước mắm?

Trong can còn lại: ..... *l* nước mắm

Bài 5: Em mua một chai sữa bò 1 l. Em đổ một phần tư chai sữa ra cốc.

a) Trong chai còn lại bao nhiêu mi-li-lít sữa?

.....ml

b) Nêu phân số thể hiện phần sữa còn lại trong chai?

$\frac{\square}{\square}$

LIVEWORKSHEETS