تدريبات المهارات

الدرس السادس | القاطع و المماس و قياسات الزوايا

استعمال القاطعين أو الوترين المتقاطعين

أوجد كلّ قياسٍ ممّا يأتي :

1) $m\angle 1 =$.....

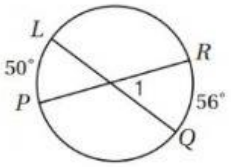

2) $m\angle 2 =$.....

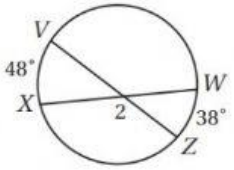

استعمال القاطع والمماس المتقاطعين

أوجد كلّ قياسٍ ممّا يأتي :

3) $m\angle 4 =$.....

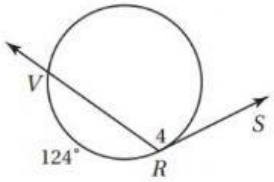

4) $m\angle 6 =$.....

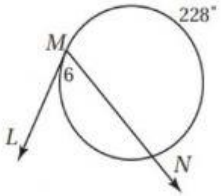

استعمال المماسات والقواطع التي تتقاطع خارج الدائرة

أوجد كلّ قياسٍ ممّا يأتي :

5) $m\angle R =$.....

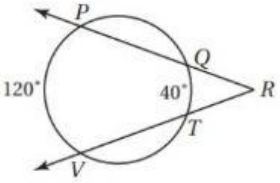

6) $m\angle K =$.....

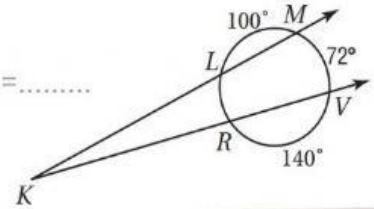

تطبيق خصائص القواطع المتقاطعة خارج الدائرة

أوجد كلّ قياسٍ ممّا يأتي :

7) $m\widehat{DPA} =$.....

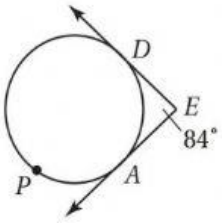

8) $m\widehat{LJ} =$.....

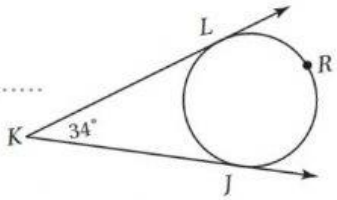

أسم الطالبة : الشعبة :

LIVEWORKSHEETS