LEMBAR KERJA PESERTA DIDIK
(LKPD)

MAPEL	: BIOLOGI
KD/ MATERI	: 3.9/ KINGDOM ANIMALIA (HEWAN)
NAMA	:
KELAS	:

Perhatikan dan amati vidio tersebut
Buatlah ringkasan yang padat dan jelas dari video diatas

LIVEWORKSHEETS

A. PILIHLAH JAWABAN YANG PALING TEPAT (Pilihan Ganda)

1. Perhatikan data berikut :

   I. Heterotrof III. Uniseluler V. Eukariotik

   II. Multiseluler IV. Prokariotik

   Ciri-ciri organisme kingdom animalia terdapat pada nomor ....

   a. I,II,IV b. I,III,V c. I,II,V d. I,III,IV e. I,II,III

2. Berdasarkan jumlah lapisan tubuh dan rongga tubuh, manakah pengelompokan hewan yang benar?

   a. Diploblastik dan vertebrata
   b. Diploblastik dan selomata
   c. Selomata dan aselomata
   d. Triploblastik dan bilateral
   e. Pseudoselomata dan radial

3. Yang termasuk kelompok hewan vertebrata adalah ....

   a. Porifera b. Nemathelminthes c. Pisces d. Molusca e. Coelenterata

4. Perhatikan gambar berikut

   Nama filum dari kedua hewan pada gambar tersebut secara berurutan adalah ....

   a. Porifera dan Coelenterata c. Annelida dan Mollusca e. Echinodermata dan Chordata
   b. Porifera dan Molusca d. Arthropoda dan Annelida

LIVEWORKSHEETS

A. Struktur Bunga

(Pasangkan dengan menarik garis gambar struktur bunga berikut dengan nama istilah yang benar)

Benangsari

Kepala sari

Kepala putik

Tangkai putik

Tangkai sari

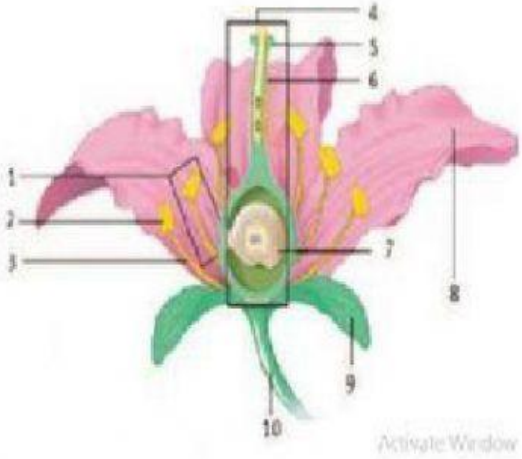

Kelopak

Mahkota

Tangkai bunga

Bakal Biji

Putik

B. Jenis-jenis Cara Penyerbukan berdasarkan perantaranya

(Pasangkan gambar-gambar dibawah ini dengan istilah penyerbukan, dan isilah perantara yang berperannya!)

Gambar	Istilah penyerbukan	Perantara
		serangga
		.....
		.....

LIVEWORKSHEETS

Perhatikan gambar berikut !



Pasangkanlah hewan di atas dengan cara beradaptasinya pada diagram berikut

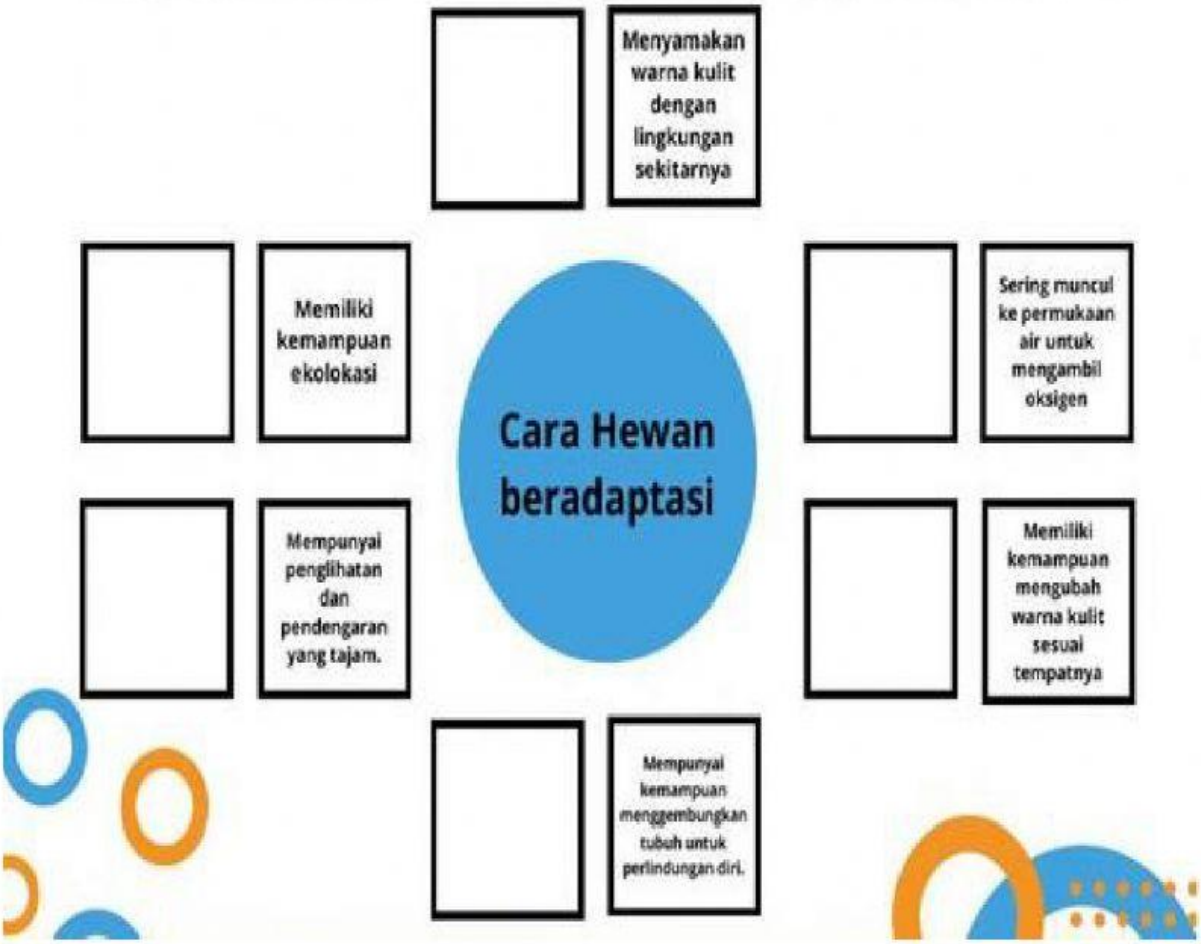

LIVEWORKSHEETS

C. **TARIKLAH GARIS PADA KOTAK YANG MEMUAT JAWABAN YANG BENAR (Menjodohkan)**

1. Gambar hewan dan nama filum/ kelas

REPTILIA

COELENTERATA

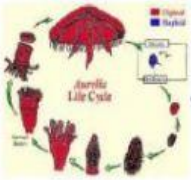

ARTHROPODA

PORIFERA

2. Ciri-ciri dan gambar

Tubuh Berduri

Berambut

Bersegmen

LIVEWORKSHEETS

TEKA TEKI SILANG SISTEM PENCERNAAN MANUSIA

Nama : _____

Kelas : _____

No Abs.: _____



Pertanyaan mendatar

3. Peradangan lambung karena meningkatnya asam lambung, setres, makan tidak teratur
6. Gula dalam darah
7. Enzim pemecah lemak menjadi asam lemak dan gliserol
9. Protein dari tumbuhan (kedelai, kacang tanah)
12. Penampung feses sebelum dikeluarkan lewat anus
13. Terdapat bakteri E.coli yang membantu pembusukan sisa-sisa makanan
15. Zat gisi untuk pertumbuhan dan pengganti sel-sel yang rusak
17. Kekurangan vitamin
19. Pencernaan yang dibantu oleh enzim
20. Enzim yang mengubah protein menjadi pepton

Pertanyaan menurun

1. Berfungsi menyimpan cadangan energi dalam tubuh
2. Kelenjar ludah
4. Mineral untuk pertumbuhan tulang dan gigi
5. Saluran yang menghubungkan mulut dengan lambung
8. Gerakan kontraksi dan relaksasi yang mendorong makanan ke lambung
10. Gigi untuk mengunyah/menggilas
11. Tempat penyerapan sari-sari makanan
14. Organ penghasil empedu
16. Kondisi feses kering dan keras sehingga sulit dikeluarkan
18. Enzim yang mencerna amilum menjadi zat gula

LIVEWORKSHEETS

SOAL PILIHAN GANDA

Di bawah ini yang merupakan gambar buah apel adalah . . . .

SOAL ISIAN SINGKAT

Makanan pokok orang Indonesia adalah . . . .

SOAL DROP DOWN

SOAL CHECK BOX

Yang merupakan profesi seorang dokter adalah . . .

SOAL JOIN ARROW

KERETA

KAPAL

LIVEWORKSHEETS