Самоподготовка по математика в I клас

1зад. Реши задачите:

6 + 2 = ☐	8 – 4 = ☐	12 + 8 = ☐☐	19 – 9 = ☐☐
7 + 3 = ☐☐	10 – 7 = ☐	9 + 6 = ☐☐	12 – 5 = ☐
5 + 6 = ☐☐	13 – 7 = ☐	13 + 7 = ☐☐	11 – 8 = ☐
12 + 7 = ☐☐	11 - 6 = ☐	10 + 0 = ☐☐	20 – 7 = ☐☐

2зад. Запиши неизвестното число:

8 + ☐ = 10 6 + ☐ = 13 18 - ☐ = 10 11 - ☐ = 6

3 зад. Преброй и запиши броя на триъгълниците и броя на правоъгълниците:

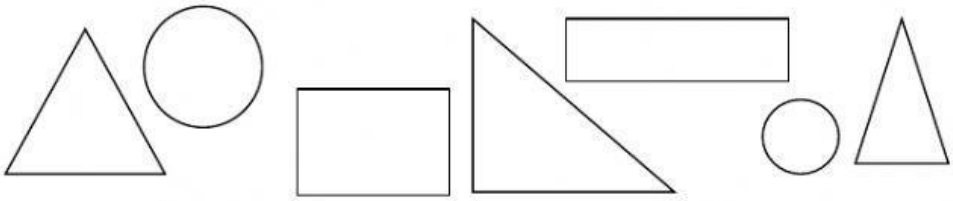

Триъгълници- ☐ **Правоъгълници-** ☐

4 зад. Пресметни:

Умаляемото е **20**, а умалителят е **13.** Колко е разликата?

☐☐☐☐☐

Едното събираемо е **7**, а другото **8**. Намерете сбора на двете числа.

☐☐☐☐☐

5 зад. Реши задачата:

За училищен карнавал учениците от първи клас направили 7 маски, а второкласниците – с 5 повече. Колко маски са направили второкласниците?

☐☐☐☐☐ Отговор: ☐☐ ----------

6 зад. Определете размерите на предметите в см.

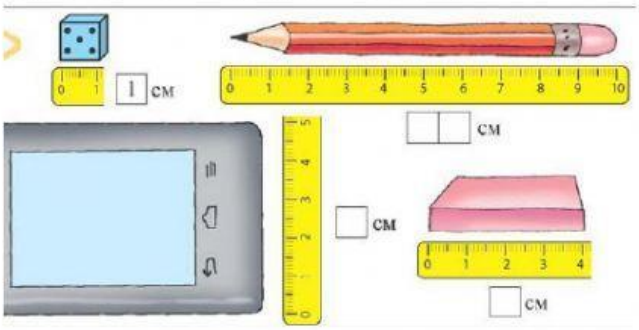

7 зад. Колко е часа?



Когато в София е часът, а в Лондон е часът.

Колко часа назад показват часовниците в Лондон?

Решение:

Отговор: